Tuần 21

# Rèn Toán

**Câu 1.** Số **mười tám** là

**A. 16.** **B. 17.** **C. 18.** **D. 19.**

**Câu 2.** Số cần điền vào chỗ chấm là

**20, ...., 40**

**A. 10** **B. 30** **C. 50** **D. 60**

**Câu 3.** Nối đúng

| ba mươi | năm mươi | sáu mươi |
|---|---|---|

60 50

**Câu 4.** Hình bên có bao nhiêu hình tam giác?

**A. 16** **C. 18**

**B. 17** **D. 19**



**Câu 5.** Số hình chữ nhật có trong hình dưới là

**A. 1** **C. 3**

**B. 2** **D. 4**

LIVEWORKSHEETS

Tuần 21

# Rèn Toán

**Câu 1.** Viết số thích hợp vào chỗ chấm.

**mười bảy: .....** **mười chín: .....**

**mười tám: .....** **hai mươi: .....**

**Câu 2.** Điền số.

**10, ....., 30, ....., ....., 60, ....., 80, 90**

**Câu 3.** Đọc các số sau.

**17: .....** **19: .....**

**18: .....** **20: .....**

**Câu 4.** Điền số thích hợp vào ô trống.









LIVEWORKSHEETS