CCSS Los climas

1. Escribe cómo se llaman los instrumentos y qué miden de los elementos del tiempo atmosférico .

G	B	A	T	S	O	X	T	A	C	C	P	H	D
B	L	T	A	U	P	F	E	Z	L	E	R	I	I
A	A	G	N	W	L	W	M	P	A	N	E	G	F
R	T	A	E	N	U	U	P	R	A	T	C	R	O
O	M	W	M	K	V	U	E	E	H	I	I	O	Y
M	O	J	O	B	I	I	R	S	U	G	P	M	G
E	S	B	M	K	O	L	A	I	M	R	I	E	R
T	F	D	E	O	M	N	T	O	E	A	T	T	A
R	E	R	T	P	E	S	U	N	D	D	A	R	D
O	R	J	R	F	T	G	R	V	A	O	C	O	O
P	I	C	O	J	R	I	A	R	D	S	I	G	S
X	C	S	H	O	O	X	P	D	F	B	O	B	R
N	A	P	R	S	V	G	H	A	K	M	N	I	J
Q	Q	V	I	E	N	T	O	H	Z	K	C	H	R

Higrómetro mide la **Humedad**

Pluviómetro mide **precipitaciones**

2. Coloca cada clima de España con sus características

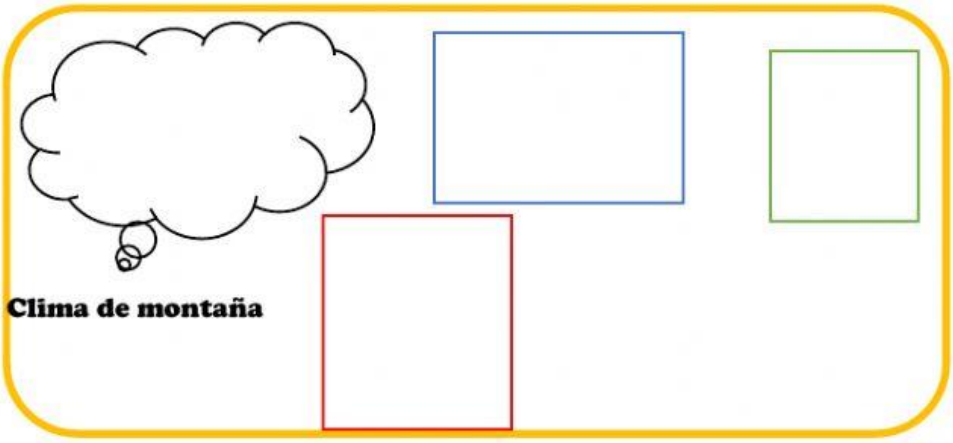

Asturias, Cantabria y País Vasco

Submesetas, depresión del Ebro y Guadalquivir

Zonas bañadas por el mar mediterráneo

Islas Canarias

LIVEWORKSHEETS

CCSS Los climas

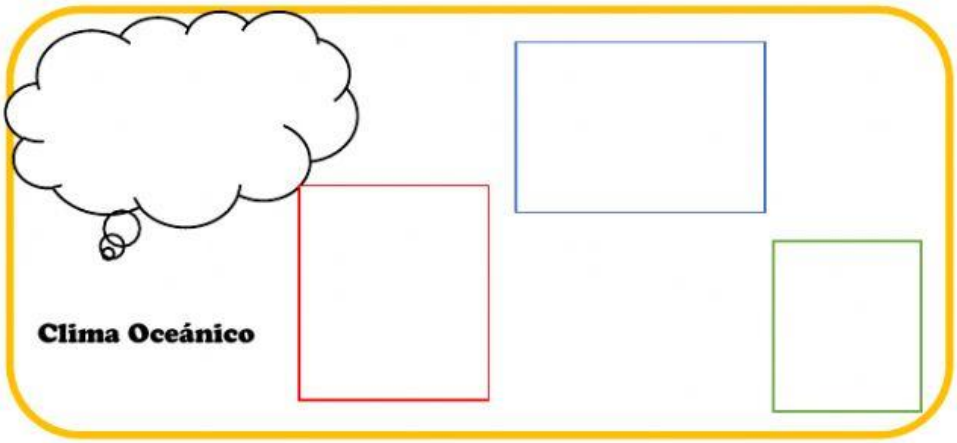

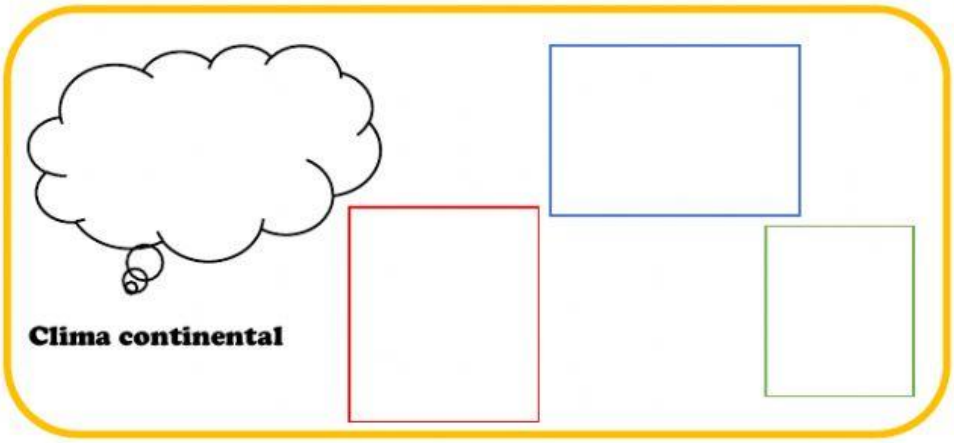

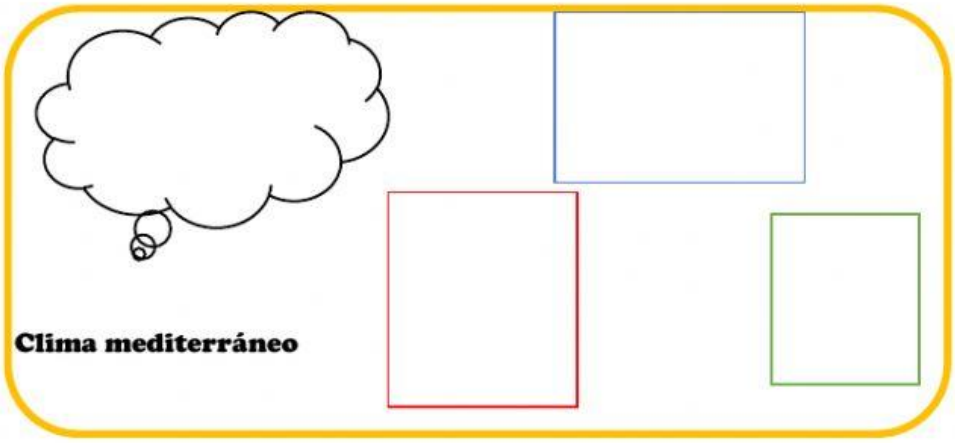

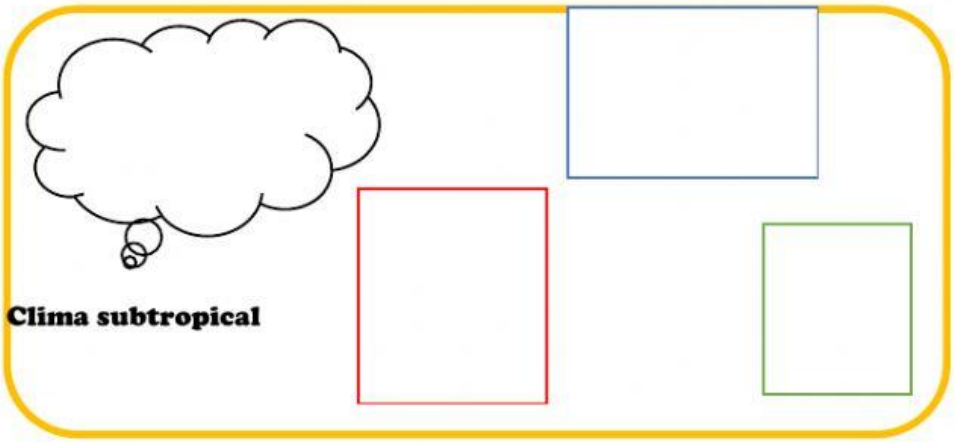



Aleidadadelcampo

LIVEWORKSHEETS

CCSS Los climas

3. Nombra las 3 grandes zonas climáticas de la Tierra.

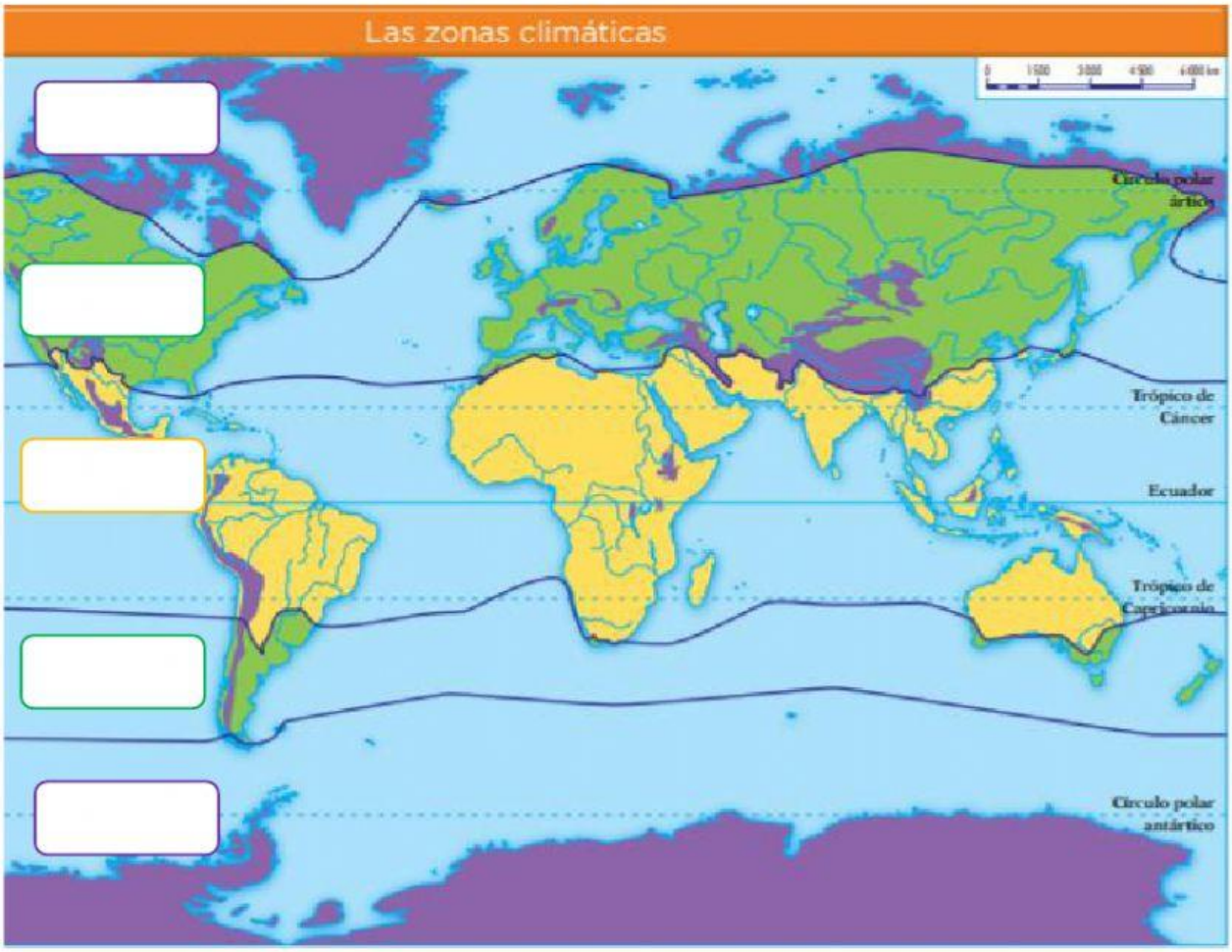

4. ¿Qué climas tiene Asturias?

El _____ se da en las tierras más altas de la cordillera Cantábrica.

El _____ se da en casi toda la comunidad, pero tiene **características** distintas en la _____

y en el _____ .

CONTENIDO DE CALIDAD
Aleida Valdelpampo
LIVEWORKSHEETS