LKPD 1 TATA SURYA

Nama :

Kelas :

A. Perhatikan video Berikut ini!

B. Kerjakanlah soal berikut ini dengan benar

1. Benda langit di tata surya yang menjadi pusat tata surya adalah ....
   a. Bumi
   b. Bulan
   c. Matahari
   d. Meteor
2. benda langit di tata surya yang bergerak mengelilingi bumi adalah....

   a.

   b.

LIVEWORKSHEETS

c.



d.

3. Pilihlah jawaban yang sesuai dengan gambar!



4. Buatlah garis ke jawaban yang benar



Meteor

Bumi

Matahari

5. Tariklah nama benda langit berikut sesuai dengan gambar

Bumi

Alien

Bulan

Meteor

Matahari

LIVEWORKSHEETS