Діагностувальна робота з з теми «Табличне додавання і віднімання в межах 20. Многокутник»
Комбінована робота
2 варіант

1. Обчисли значення виразів

(49 + 10) — 9 = 30 + (4 + 8) =

14 — 6 + 9 =

2. Розв'яжи задачу діями з поясненням.

У класі 12 гімнастів, плавців – на 3 менше, а легкоатлетів стільки, скільки гімнастів і плавців разом. Скільки дітей у класі займається легкою атлетикою?

1) - плавців;

2)

Відповідь:

3. Об'єднай фігури у дві групи. Перетягни.

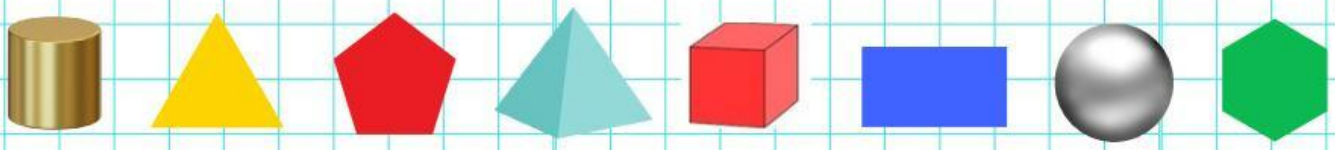

Геометричні тіла Геометричні фігури

LIVEWORKSHEETS

4. Обчисли значення виразу

7 дм + 9 дм= м дм

5. Обчисли периметр прямокутника зі сторонами 4 см і 5 см.



P=

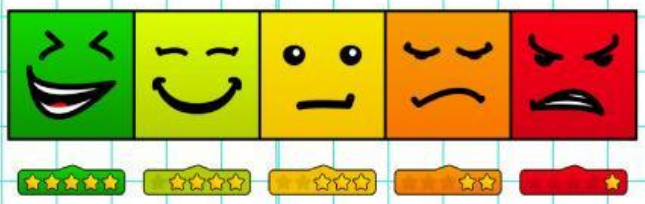

LIVEWORKSHEETS