คะแนน

ใบงานวิชาวิทยาศาสตร์ ชั้นประถมศึกษาปีที่ 5

หน่วยที่ 2 แรงและพลังงาน

บทที่ 1 แรงลัพธ์และแรงเสียดทาน เรื่องที่ 1 แรงลัพธ์ (2)

ชื่อ – สกุล _____ ชั้น _____ เลขที่ _____

คำชี้แจง : ให้นักเรียนตอบคำถามให้ถูกต้องสมบูรณ์

กรณีที่ 1 สองแรงกระทำกับวัตถุในทิศทาง.....

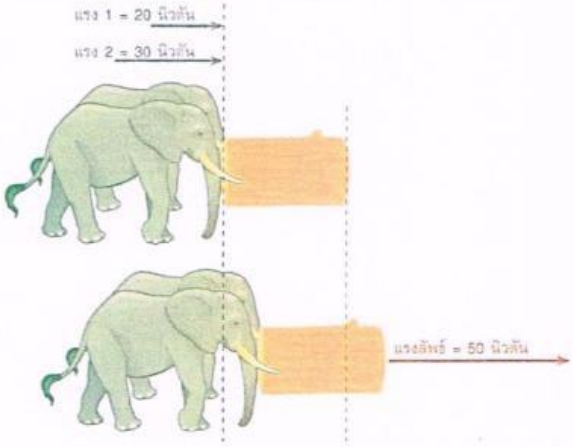

วัตถุเคลื่อนที่ไปทาง .....แรงลัพธ์ = ... นิวตัน

กรณีที่ 2 สองแรงกระทำกับวัตถุในทิศทาง.....

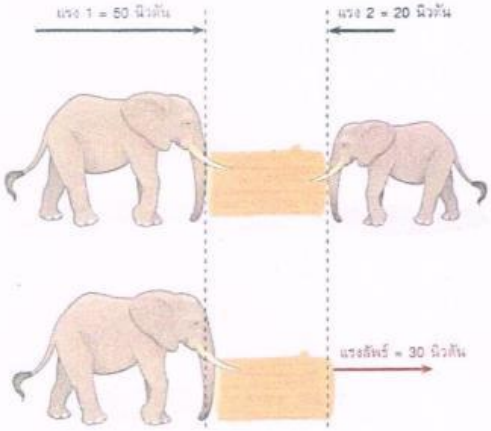

วัตถุเคลื่อนที่ไปทาง .....แรงลัพธ์ = ... นิวตัน

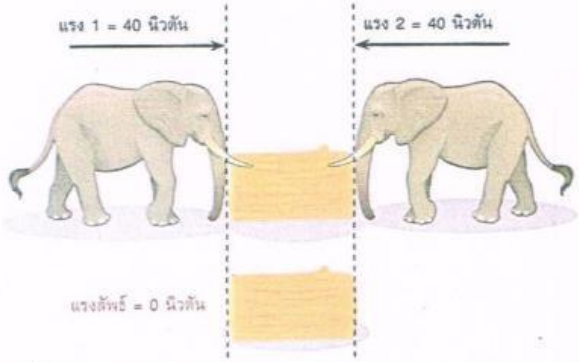

กรณีที่ 3 สองแรงกระทำกับวัตถุในทิศทาง.....

วัตถุเคลื่อนที่ไปทาง .....แรงลัพธ์ = ... นิวตัน

คำชี้แจง : ให้นักเรียนหาแรงลัพธ์จากแผนภาพการออกแบบ พร้อมบอกทิศทางที่วัตถุเคลื่อนที่

1.

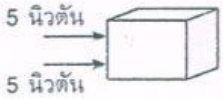

แรงลัพธ์.....นิวตัน วัตถุ.....

2.

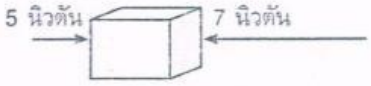

แรงลัพธ์.....นิวตัน วัตถุ.....

3.

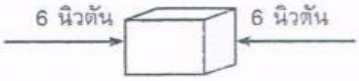

แรงลัพธ์.....นิวตัน วัตถุ.....

4.

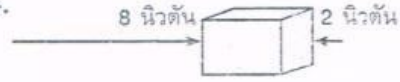

แรงลัพธ์.....นิวตัน วัตถุ.....

LIVEWORKSHEETS