MENGENAL BANGUN RUANG & CIRI-CIRINYA

Kelompok :
Nama Anggota :

!. Perhatikan gambar-gambar di bawah ini!

Pilihlah jawaban (tarik dan geser ke kotak yang sesuai dengan gambar)!

Kubus | Balok | Kerucut | Bola | Tabung

2. Perhatikan gambar-gambar di bawah ini dan tuliskan nama rusuk (ruas garis) dari bangun ruang di bawah ini!

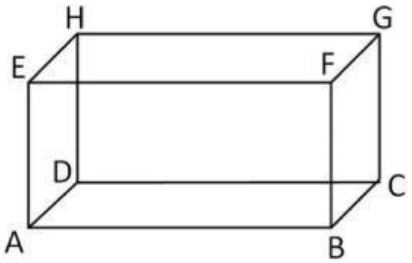

Pisahkan setiap rusuk dengan tanda koma (,)

LIVEWORKSHEETS

3. Perhatikan gambar-gambar di bawah ini dan tentutak jumlah semua sisi, rusuk dan titik sudutnya!

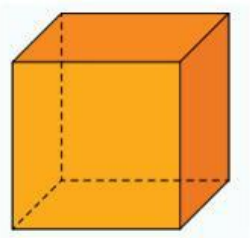

Sisi =

Rusuk =

Titik sudut =

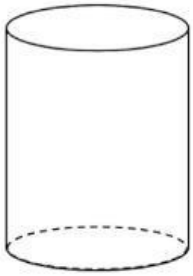

Sisi =

Rusuk =

Titik sudut =



Sisi =

Rusuk =

Titik sudut =

LIVEWORKSHEETS