(1)

المادة: الدراسات الاجتماعية الصف : الخامس اختبار تجريبي–الفصل الدراسي الأول – العام الدراسي 2024/2023م

١٢

أجب عن جميع الأسئلة الآتية

السؤال الأول: ضع دائرة حول رمز الإجابة الصحيحة لكل مفردة من المفردات الآتية:-

1- الديانة التي انتشرت بين سكان شبه الجزيرة العربية قبل الإسلام الواضحة في الصورة أمامك:



أ-اليهودية ب-النصرانية ج-الحنيفية د-عبادة الأوثان

استعن بخريطة سلطنة عُمان التي أمامك للإجابة عن المفردتين(2، 3)

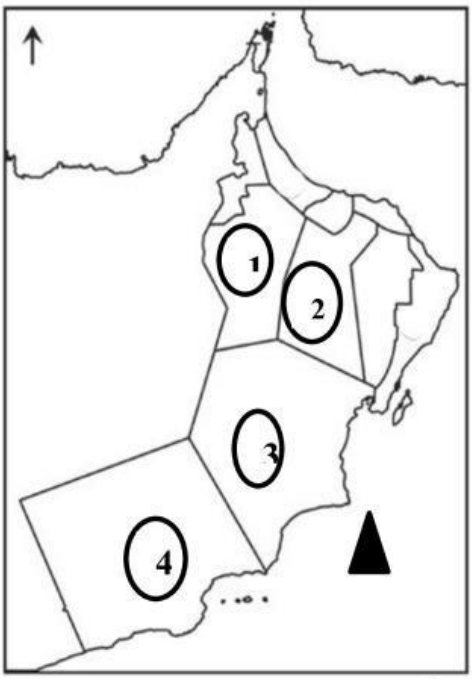

2- الرقم الذي يشير إلى المحافظة العُمانية التي حدثت فيها موقعة سلوت بين الأزد والفرس :

أ- 1 ب- 2 ج- 3 د- 4

3- المسطح المائي الذي يرمز له الرمز (▲) هو:

أ-بحر عُمان ب- الخليج العربي

ج- بحر العرب د- المحيط الهندي

4-الخط الرئيسي الذي يقسم الكرة الأرضية إلى نصف شرقي ونصف غربي:

أ- الاستواء ب- السرطان

ج- الجدي د- غرينتش

5- النشاط الاقتصادي الذي كان يمارسه سكان الحياة البدوية:

(أ)

(ب)

(ج)

(د)

6- الحضارة التي رسمت على خرائطها خطوط الطول ودوائر العرض:

أ- الرومان ب- الإغريق ج- المسلمون د-البابليون

يتبع/2

LIVEWORKSHEETS

المادة: الدراسات الاجتماعية الصف :الخامس اختبار تجريبي –الفصل الدراسي الأول – العام الدراسي 2024/2023م

7- إذا كانت الساعة الخامسة مساء على خط جرينتش، فستكون الساعة في مسقط والتي تبعد 60 خطا شرق خط جرينتش:

أ- 6 مساء ب-7 مساء ج-8 مساء د-9 مساء

8- العام الميلادي الذي تم فيه افتتاح متحف عمان عبر الزمان:

أ - 2020 ب - 2021 ج -2022 د - 2023

9-الصورة الصحيحة التي تمثل التصرف الصحيح من بين المواقف التالية:

(أ)

(ب)



(ج)

(د)

10-المظهر الذي توضحه الصورة أمامك من مظاهر الانتماء والولاء للوطن:

أ- المشاركة في الأعمال التطوعية.
ب-الالتزام بالقوانين والأنظمة.
ج- الدفاع عن الوطن.
د- الاهتمام بمنجزات الوطن.

يتبع/3

LIVEWORKSHEETS

المادة: الدراسات الاجتماعية الصف: الخامس اختبار تجريبي –الفصل الدراسي الأول – العام الدراسي 2024/2023م

11- الوسيلة التي استخدمها الإنسان قديما لمعرفة المواقع والاتجاهات والتي وردت في الآية الكريمة قال تعالى: (وَهُوَ الَّذِي جَعَلَ لَكُمُ النُّجُومَ لِتَهْتَدُوا بِهَا فِي ظُلُمَاتِ الْبَرِّ وَالْبَحْرِ):

أ-الكواكب ب-النجوم ج-القمر د-الشمس

12- الطبيب العربي الذي كان مضربا للمثل في الطب قبل الإسلام:

أ- ابن حذيم ب-مصقلة بن رقبة ج-معولة بن شمس د-مالك بن فهم

السؤال الثاني: أجب عن الأسئلة الآتية:

٨

أولاً: أ) عرف ما يلي:

1) الموقع الفلكي:

.....

.....

2) العرب البائدة:

.....

.....

ب) وضح أهم القيم الأخلاقية الحميدة التي انتشرت عند العرب قبل الإسلام؟ (يكتفى باثنين)

.....

.....

ثانيًا: أمامك نمطين من أنماط الحياة عند العرب، ادرسها جيدًا، ثم صنفها في جدول العبارات التالية حسب خصائص كل نمط: (ممارسة النشاط الزراعي / السكن في الخيام المتنقلة / الاستقرار في القرى والمدن /الانتقال من مكان لآخر):

أ	ب
	
1).....	1).....
2).....	2).....

يتبع/4

LIVEWORKSHEETS