Кліматичні пояси

Завдання 1. Покажіть на карті кліматичні пояси

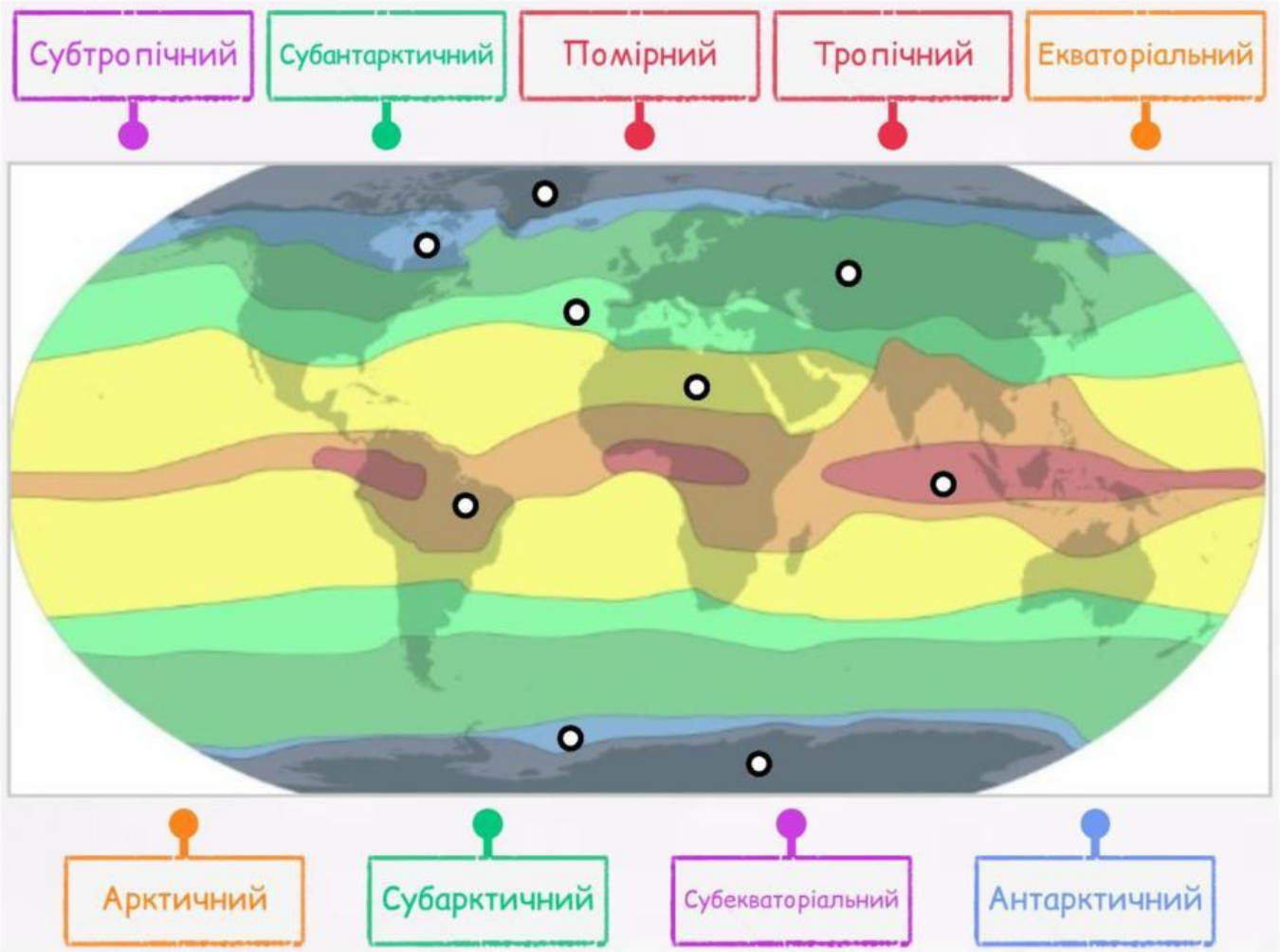

Завдання 2. Визначте основні характеристики кліматичних поясів

Літо тропічне - сухе і жарке, зима прохолодна і волога	екваторіальні та тропічні повітряні маси	екваторіальні повітряні маси	найбільша кількість кліматичних областей	помірні та арктичні (антарктичні) повітряні маси
Тут панують полярна ніч і полярний день	тропічні повітряні маси	виділяють два типи клімату: континетальний та вологий	Увесь рік тут морозно, поширені полярні пустелі	всі сезони року
тропічні та помірні повітряні маси	літній вологий та зимовий сухий сезон	пояс "вічного літа"	коротке прохолодне літо та довга зима	

LIVEWORKSHEETS

Екваторіальний

Субекваторіальний

Тропічний

Субтропічний

Помірний

Субарктичний/Субантарктичний

Арктичний/Антарктичний

Завдання 3 Згадайте, що показує кліматодіаграма (з'єднайте відповідні показники з їх характеристиками)

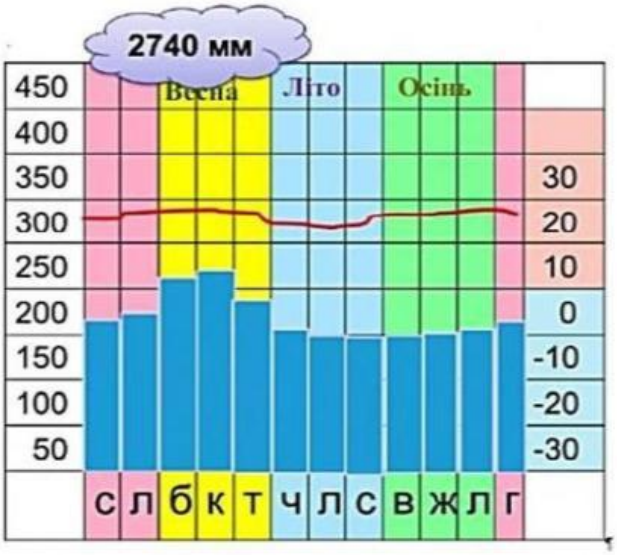

Сума опадів за рік (мм)
Кількість опадів за місяць (мм)
Місяці року
Річний хід температури повітря (t°C)
Шкала опадів (мм)
Шкала температури повітря (t°C)

Завдання 4. Визначіть якому кліматичному поясу відповідає кліматодіаграма

LIVEWORKSHEETS

Субарктичний пояс

Помірний морський північної півкулі

Тропічний північної півкулі

Помірний континентальний

Субтропічний південної півкулі

Екваторіальний пояс

Субекваторіальний південної півкулі

Субтропічний північної півкулі

Мусонний північної півкулі

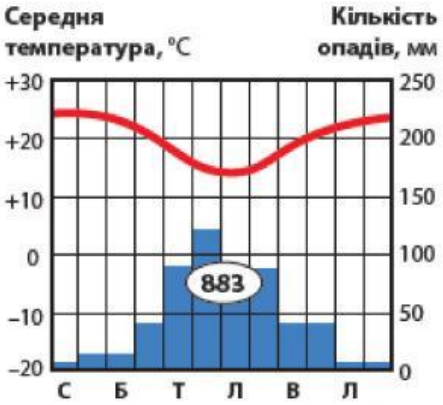

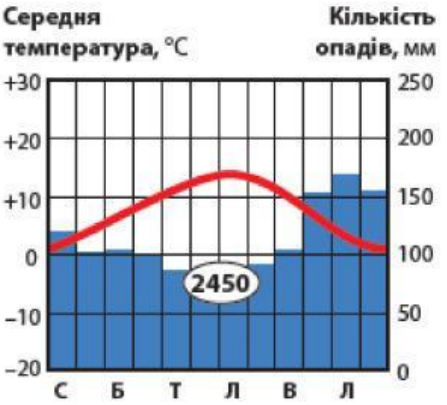

LIVEWORKSHEETS

Завдання 4. Кросворд. Знайдіть правильні відповіді.



ПО ГОРИЗОНТАЛІ

1. Багаторічний режим погоди. 5. Ізолінія на карті, що сполучає точки з однаковою кількістю атмосферних опадів. 6. Постійні вітри в тропічних широтах. 8. Кількість кліматичних поясів. 9. Вітри невеликої сили на берегах морів, великих озер і річок. 10. Атмосферний вихор з низьким тиском в центрі. 11. Здатність поверхонь або окремих тіл відбивати сонячну радіацію. 12. Межа між різними повітряними масами.

ПО ВЕРТИКАЛІ

2. Вітер, який змінює свій напрям двічі на рік: взимку дме із суходолу на океан, а влітку, навпаки, з океану на суходіл. 3. Постійний вітер помірних широт. 4. Переміщення повітряних мас. 5. Ізолінія на карті, яка з'єднує місця з однаковою середньою температурою. 7. Атмосферний вихор з високим тиском в центрі.

LIVEWORKSHEETS