Soal DragDrop

HUJAN

Bagaimana hujan terjadi?
Susunlah gambar sehingga menjadi urutan yang tepat



Isilah kotak dengan nomor urut gambar yang tepat!

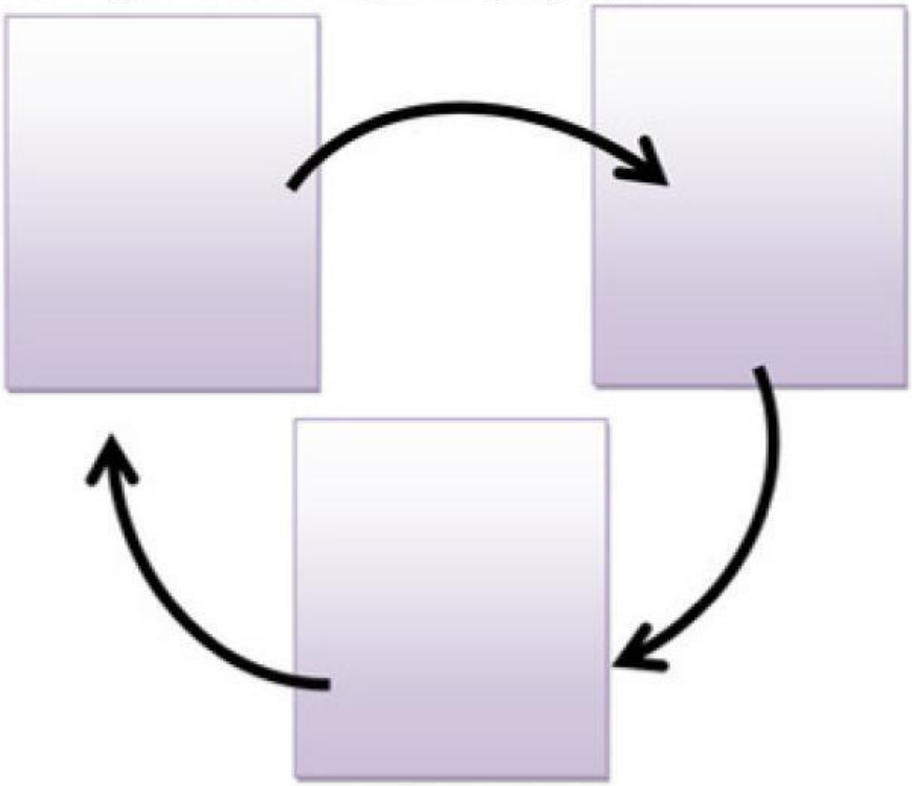

Hasilnya akan menunjukkan bagaimana hujan terjadi

LIVEWORKSHEETS

Soal DragDrop

HUJAN ASAM

Bagaimana hujan asam terjadi?

Susunlah gambar sehingga menjadi urutan yang tepat



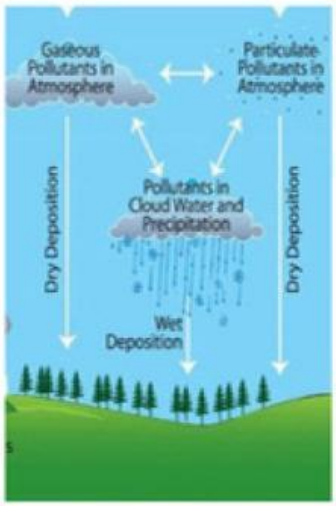



Isilah kotak dengan nomor urut gambar yang tepat!

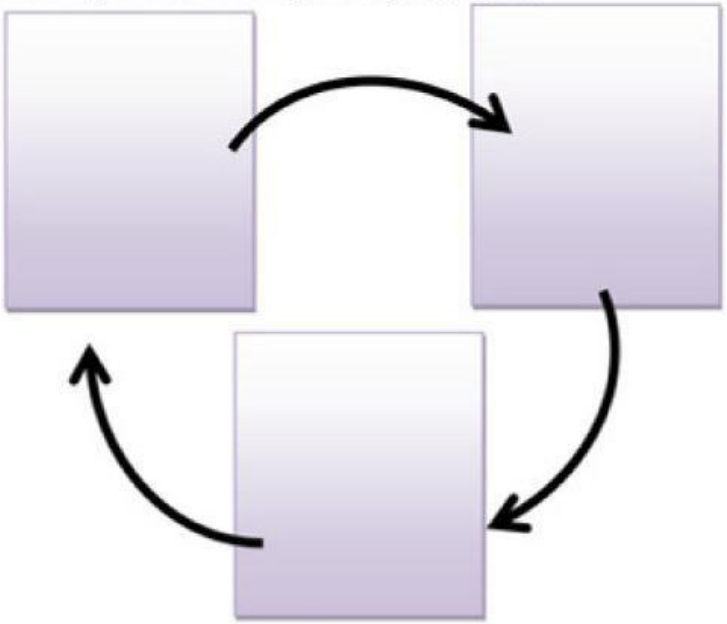

Hasilnya akan menunjukkan bagaimana hujan asam terjadi

LIVEWORKSHEETS

Soal Essai

Tulislah Rancangan Eksperimenmu

LIVEWORKSHEETS

Mengumpulkan Data

LIVEWORKSHEETS

Soal Essai

Sampaikan Ide dan Pendapatmu!

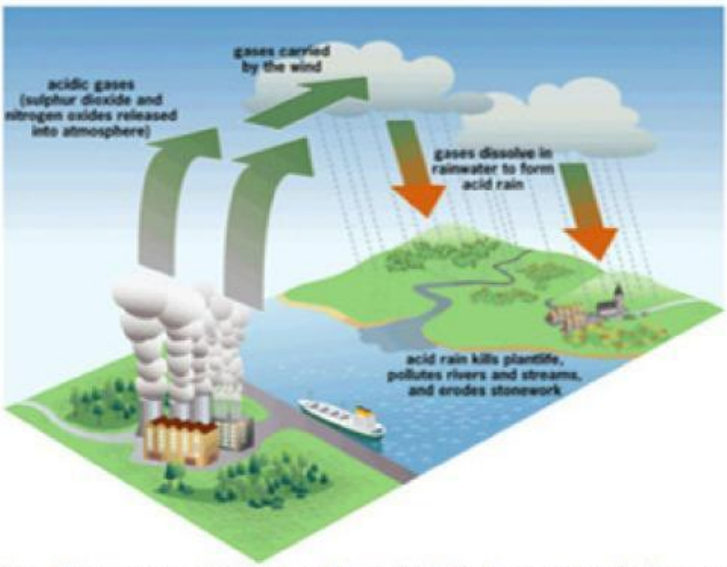

Gambar diatas memperlihatkan polutan hasil dari proses pembakaran yang dilakukan manusia, yang mengandung gas asam seperti sulfur dioksida dan nitrogen oksida dilepaskan ke atmosfer dan terbawa angin hingga berkumpul menjadi awan. Gas–gas ini akan berdifusi ke atmosfer dan akan larut dalam air hujan membentuk suatu senyawa asam, inilah yang dinamakan dengan hujan asam.

Tuliskanlah persamaan reaksi kimia pembentukan hujan asam, dari :

a. gas sulfur dioksida dengan uap air di udara!
b. gas nitrogen oksida dengan uap air di udara
c. gas karbon dioksida dengan uap air di udara

LIVEWORKSHEETS