Lembar Kerja Peserta Didik

Nama kelompok

1.
2.
3.
4.

Kelas :

LIVEWORKSHEETS

Perhatikan Instruksi Berikut

1. Perhatikan tabel berikut
2. Pasangkan dengan benar yang termasuk segi banyak dan tuliskah nama bangun, banyak sudut dan banyak sisinya
3. lalu simpulkan
4. kerjakan secara bekelompok

LIVEWORKSHEETS

No	Gambar bangun	Nama bangun	Banyak sudut	Banyak sisi
1	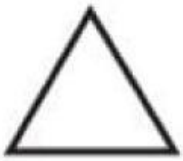	...	...	...
2	...	...	...	...
3	...	...	...	...
4	...	...	...	...

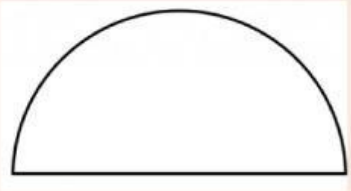



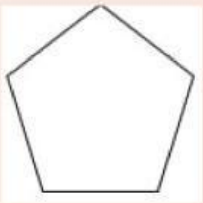

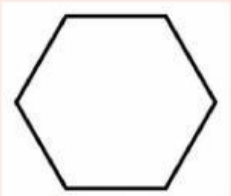

LIVEWORKSHEETS

SIMPULKAN

1. apa yang kalian ketahui tentang segitiga ?

2. apa yang kalian ketahui tentang segiempat ?

3. Apa yang kalian ketahui tentang segilima?

4. Apa yang kalian ketahui tentang segienam?

LIVEWORKSHEETS