Latihan Soal

1 80 hg beras beras dibagikan ke dalam setiap plastik seberat 1,5 kg. Berapa banyak plastik dari 1,5 kg yang dapat diisi dan berapa kg beras yang masih tersisa...

a. 6 plastik dan tidak tersisa

b. 6 plastik dan sisa 1

c. 8 plastik dan sisa 1

d. 8 plastik dan sisa 2

2 Ibu berbelanja ke warung membeli bahan pokok yang meliputi: 30 kg beras, 5 kg tepung terigu, gula pasir 750 gram, dan telur 250 gram. Maka berat belanjaan Ibu seluruhnya dalam satuan hg adalah...

a. 365 hg

b. 360 hg

c. 36,8 hg

d. 38,0 hg

3 Rahma memiliki 3 buah apel dirumahnya, lalu ia membagikan 0,15 apel ke teman-temannya. Berapa bagian yang didapat temannya Rahma?

a. 10

b. 15

c. 20

d. 30

LIVEWORKSHEETS

Latihan Soal

4 Kita dapat mengecat 3,2 m2 dinding dengan 5,76 dl cat. Maka cat yang dibutuhkan untuk mengecat 1 m2 dinding sebagai berikut

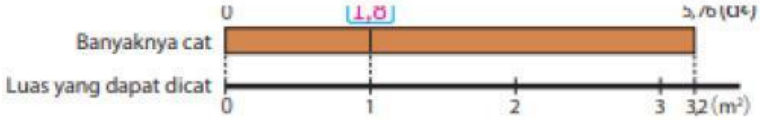

Dari diagram diatas terdapat jenis garis yaitu...

a. lurus dan zig zag

b. zig zag dan gabungan

c. lurus dan putus-putus

d. lengkung dan lurus

5 Kita dapat mengecat 3,2 m2 dinding dengan 5,76 dl cat. Berapa dl cat yang kita butuhkan untuk mengecat 1 m2 dinding.
Dari pernyataan diatas garis diagram yang sesuai adalah...

a.

c.

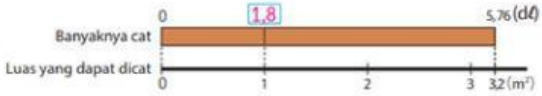

b.



d.

LIVEWORKSHEETS