ESCUELA DE EDUCACIÓN BÁSICA
"EDUARDO KINGMAN"

Sibambe # 510 y Ambato
2-154-409
EXAMEN DEL SEGUNDO PARCIAL DEL SEGUNDO QUIMESTRE

CALIFICACIÓN

ASIGNATURA: MATEMÁTICA

AÑO BÁSICO: 5to

NOMBRE: _____

FECHA: _____

_____
FIRMA DEL PROFESOR

1. SELECCIONA LAS CANTIDADES QUE SE INDICAN EN CADA CUADRO.(1 PTO)

DOSCIENTOS CUARENTA Y CINCO MIL UNO

A. 245.001 B. 2 450 001

C. 245. 101

TRES MILLONES OCHOCIENTOS MIL CUATRO

A. 3 800 400 B. 380 004

C. 3 800 004

2. ARRASTRA LA CANTIDAD CORRESPONDIENTE A CADA DESCOMPOSICIÔN. (1 PTO)

4DM + 3UM + 5C + 8D + 1U	
6DM + 2UM + 8C + 7D + 0U	

62 807

62 870

43 510

43 508

43 581

LIVEWORKSHEETS

3. ESCRIBE LA FRACCIÓN QUE CORRESPONDE A CADA GRÁFICO (1 PTO)

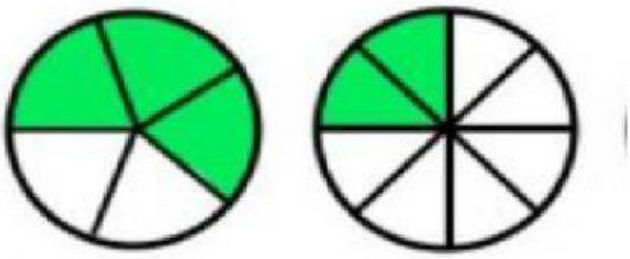

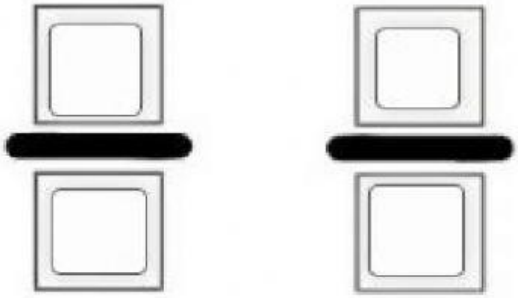

4. SELECCIONA EL SIGNO >,< O = SEGÚN CADA CASO (1 PTO)

$\frac{5}{4}$ $\frac{2}{4}$

> < =

24,50 24,5

> < =

5. SELECCIONA LA OPCIÓN ADECUADA A CADA UNO DE LOS REDONDEOS. (1 PTO)

A LA UNIDAD

34,69

34,60 35,00

34,70

A LA DÉCIMA

65,36

65,00 66,00

65,40

LIVEWORKSHEETS

6. UNIR CON LÍNEAS SEGÚN CORRESPONDA. (1 PTO)

a. 33,6 ÷ 100	**0,336**
b. 33,6 x 10	**33,600**
C. 33,6 x 1000	**0,0336**
d. 33,6 ÷ 1000	**336**

7. Resuelve los siguientes operaciones y luego seleccione la respuesta correcta (4 PTOS)

- **3869,035 + 798,32**

	UM	C	D	U	,	d	c	m
+								

A. **4 667,355**

B. **4 677,375**

C. **5 567,455**

- **7103,528 - 989,36**

	UM	C	D	U	,	d	c	m
−								

A. **6 014,178**

B. **6 119,168**

C. **6 114,168**

LIVEWORKSHEETS

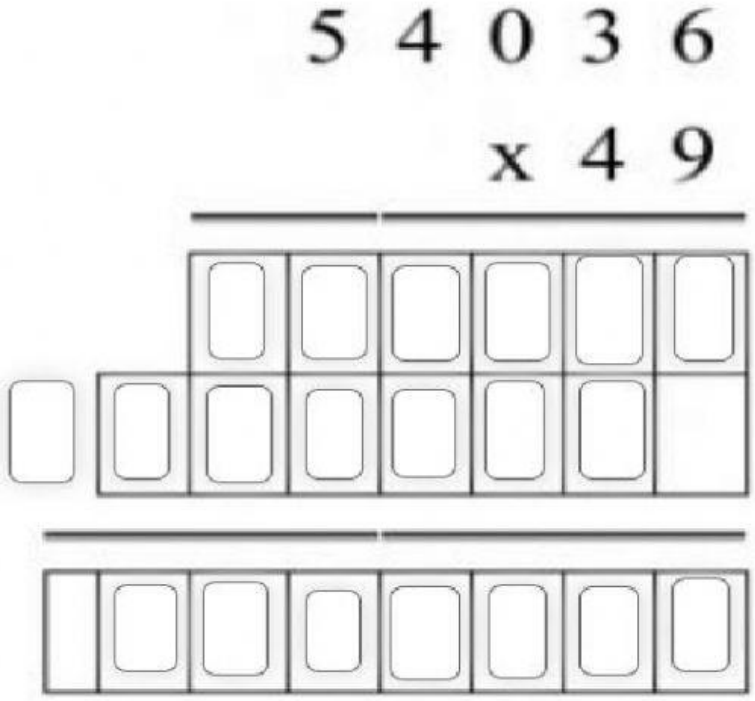

A. 2 647 764

B. 2 645 764

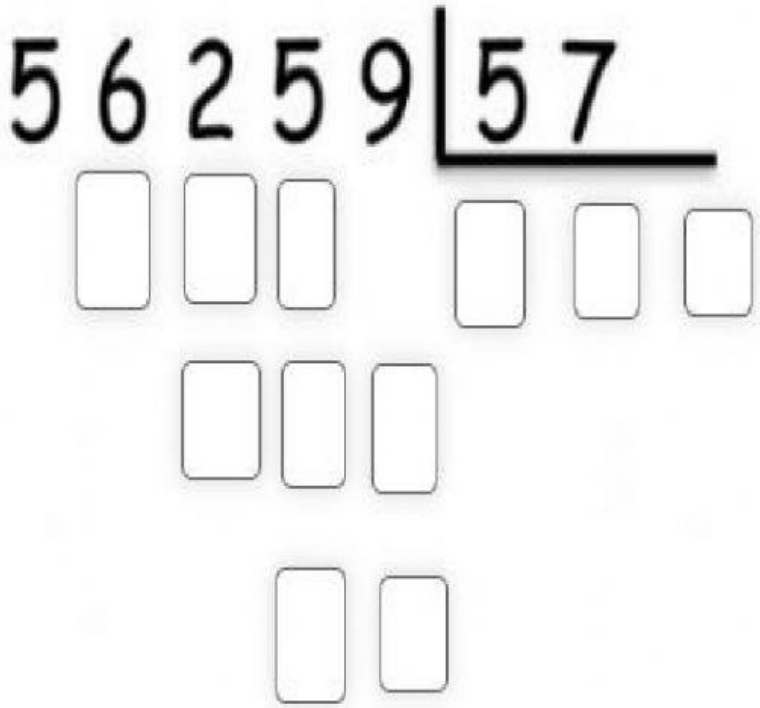

A. 987

B. 986

C. 988

LIVEWORKSHEETS