Trường tiểu học A Phường Chi Lăng	**ĐỀ KIỂM TRA CUỐI HỌC KÌ 1**
Lớp: 1A…	Năm học 2023-2024
Tên học sinh:.....	**MÔN TIN HỌC – LỚP 1**

Câu 1: Em hãy thực hiện thao tác nháy chuột đánh dấu vào nhóm có nhiều vật nhất: *(1 điểm)*





Câu 2: Em hãy thực hiện thao tác nháy chuột Chọn từ có chứa chữ **A** – **a**: *(2 điểm)*

Apple

Bee

Alligator

Cow

Cat

Câu 3: Em hãy thực hiện thao tác kéo thả chuột chọn số thích hợp điền vào chỗ trống: *(2 điểm)*

1 **2** **3** **4**

9 + …**1**.. = 10 a) 8 + ….. = 10 b) 7 + ….. = 10

<u>Câu 4:</u> Em hãy thực hiện thao tác nháy chuột Chọn đúng số quả táo : *(2 điểm)*

LIVEWORKSHEETS





Câu 5: Em hãy thực hiện thao tác nháy chuột Chọn **hình tròn**: *(1 điểm)*





LIVEWORKSHEETS