الاختبار القصير الأول للصف الخامس

الاسم	----------	اليوم	----------
الشعبة	----------	التاريخ	----------

السؤال الأول: أكمل الجدول بوضع (✓) لتحديد ما إذا كانت العبارة صحيحة أو خاطئة.

م	العبارة	صحيحة	خاطئة
١	العدد الناتج عن تقريب ٥٤,٧٨ إلى أقرب جزء من عشرة هو ٥٤,٨		
٢	عدد زوجي × عدد زوجي × عدد فردي = عدد فردي		
٣	العددان ٣ و٤ من عوامل العدد ١٢		
٤	العدد ٥٣٤ عدد فردي		

السؤال الثاني: صل بين العمود الأول وما يناسبه من العمود الثاني.

خصائص الشكل الثلاثى الأبعاد	صورة الشكل الثلاثى الأبعاد
مجسم له أربعة أوجه وستة حواف	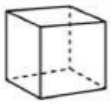
منشور ثلاثي	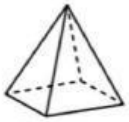
مجسم له ستة أوجه متطابقة	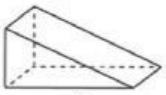
مجسم له قاعدة مربعة وخمس رؤوس	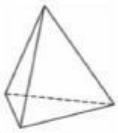
	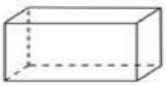

السؤال الثالث: اختر من القائمة المنسدلة ما يناسب العبارات التالية:

١- جميع الزوايا في المثلث متطابق الأضلاع متساوية وقياس كل منها .....

٢- ..... هو العدد الذي يقبل القسمة على ٢ ويكون آحاده ٠ أو ٢ أو ٤ أو ٦ أو ٨.

٣- مضلع رباعي، كل ضلعين متقابلين متوازيان، وكل الأضلاع فيه متطابقة، يعرف بـ .....

٤- يتكون الهرم الخماسي من قاعدة و ..... أوجه جانبية مثلثة الشكل.

LIVEWORKSHEETS

السؤال الرابع: اختر الإجابة الصحيحة من بين البدائل المعطاة فيما يلي.

١- الشكل الذي يمثل مضلع:

(أ) (ب) (ج) (د)

٢- أكبر عدد صحيح إذا قرب لأقرب عشرة كان الناتج ٨٣٠ هو:

(أ) ٨٢٩ (ب) ٨٢٥ (ج)٨٢٨ (د) ٨٣٤

٣- تشير الساعة المقابلة إلى الساعة ..... بنظام ١٢ ساعة

(أ) ١٥:٣٧ (ب) ٣:٣٧ (ج)٥:٣٧ (د) ٣:٧٣

١٥:٣٧

٤- محيط الشكل المظلل المقابل ..... سم

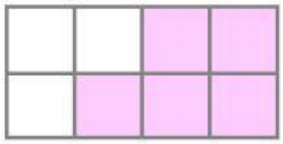

(أ)١٠ (ب) ١٦ (ج)٥ (د) ٣

السؤال الخامس: اسحب المفردة المناسبة وضعها في المكان المناسب.

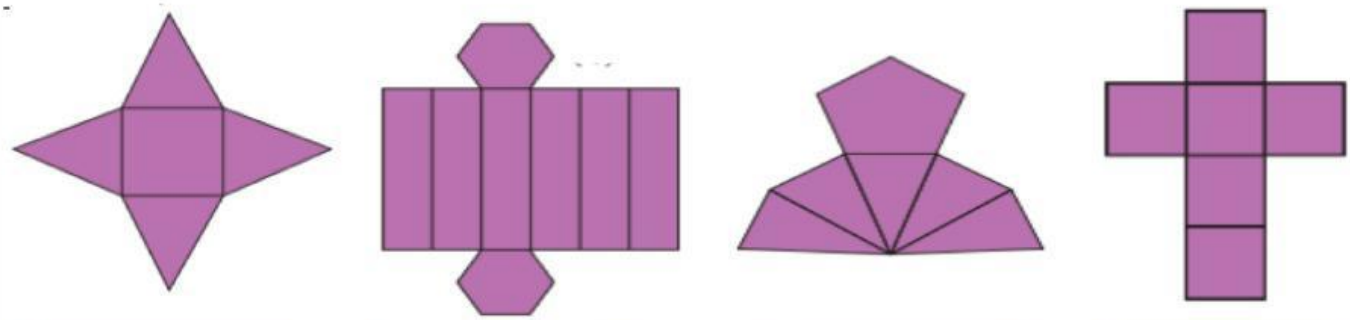

هرم ثلاثي | منشور خماسي | هرم رباعي

منشور سداسي | هرم خماسي | المكعب

LIVEWORKSHEETS