Tahun 2 : Manusia

Nama saya :

3.1 : Pembiakan dan tumbesaran manusia

Tonton video 1

Kredit video : myGuru

Tahun 2 : Manusia

3.1 : Pembiakan dan tumbesaran manusia

Pilih jawapan yang betul

Rajah menunjukkan bilangan ahli keluarga Encik Hanafi.

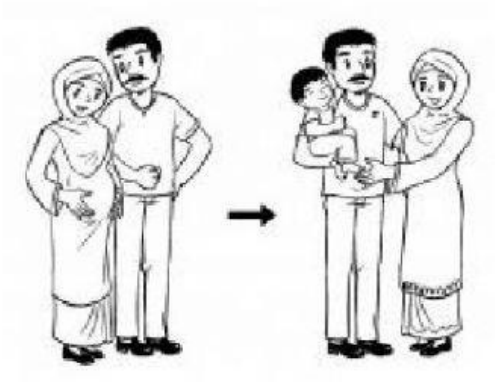

1. Bilangan ahli keluarga Encik Hanafi bertambah kerana manusia boleh _____ .

   ☐ membiak ☐ membesar

2. Manusia membiak secara _____ .

   ☐ bertelur ☐ melahirkan anak

3. Bayi berada di dalam kandungan _____ sehingga dilahirkan.

   ☐ ibu ☐ bapa

LIVEWORKSHEETS

Tahun 2 : Manusia

3.1 : Pembiakan dan tumbesaran manusia

Tonton video 2

Kredit video : myGuru

Tahun 2 : Manusia

3.1 : Pembiakan dan tumbesaran manusia

Susunkan

Perubahan tumbesaran manusia

1 _____

2 _____

3 _____

4 _____

5 _____

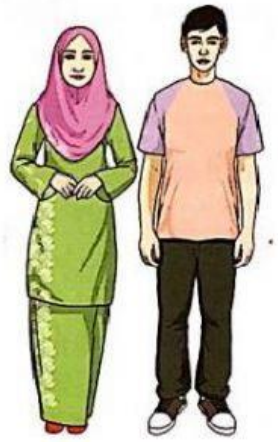

LIVEWORKSHEETS

Tahun 2 : Manusia

3.1 : Pembiakan dan tumbesaran manusia

Lengkapkan

Nyatakan 3 perubahan yang akan di alami oleh manusia.



LIVEWORKSHEETS