LKPD

KELOMPOK 2

Nama :

Kelas :

LIVEWORKSHEETS

A. Perhatikan video berikut ini!

B. Kerjakan soal berikut ini dengan benar!

1. Berapakah jumlah 3800+1200 - 50 ...
   a. 4.905
   b. 4.950
   c. 4.095
   d. 4.059

LIVEWORKSHEETS

2. Murtadha mempunyai uang Rp. 6.000, kemudian dia membeli 3 buku seharga Rp. 1.500. Berapa sisa uang Murtadha?

a.

b.

c.

d.

3. 4 + 5 – 7 - 9 = ...

a. -5

b. -6

c. -7

d. -8

LIVEWORKSHEETS

4. **Berapakah jumlah uang di bawah ini?**

5. Tentukan pecahan di bawah ini!



LIVEWORKSHEETS

6. Siapakah nama tokoh di bawah ini?

7. Buatlah garis ke jawaban yang benar!

1001	Sepuluh ribu sepuluh
10010	Seribu satu
1010	Seribu sepuluh
	Seribu satu kosong
	Seratus satu ribu

LIVEWORKSHEETS

8. Buatlah garis ke jawaban yang benar!

SOAL MENJODOHKAN	Select:no/yes
SOAL PILIHAN GANDA	Join:1 ..... Join:1
SOAL DROP DOWN	Drag:1..... Drop:1
	Choose:*pilihanbenar/salah

9. Pasangkan WARNA yang sesuai!

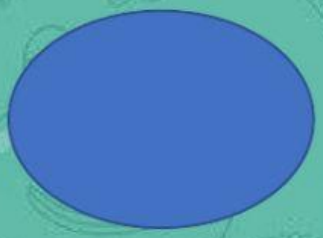

MERAH

BIRU



KUNING

LIVEWORKSHEETS

10. Tariklah jawaban yang sesuai dengan gambar!

Herdiamansah

Agustian

Pryo Keduo

Dwi Ermayanti

Dewi Ermayanti

Agussalim

Pryo Utomo

Herdiansah

THANKYOU

LIVEWORKSHEETS