หน่วยที่ 2 วงกลม สาระที่ 2 การวัดและเรขาคณิต มาตรฐาน ค 2.2	แบบฝึกหัด มุมที่จุดศูนย์กลางและมุมในส่วนโค้งของวงกลม ชื่อ..... ชั้น ม...../..... เลขที่.....	คะแนน

1. จากวงกลม O ที่กำหนดให้ ให้นักเรียนหาค่า X

1)

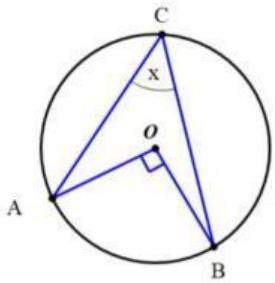

x = ---------- องศา

2)

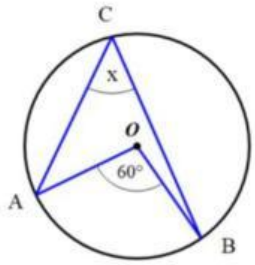

x = ---------- องศา

3)

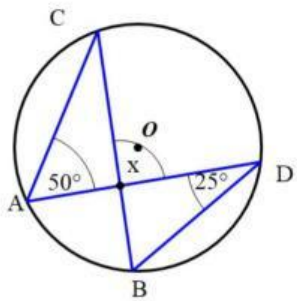

x = ---------- องศา

4)

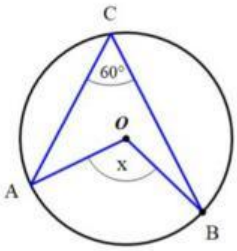

x = ---------- องศา

5)

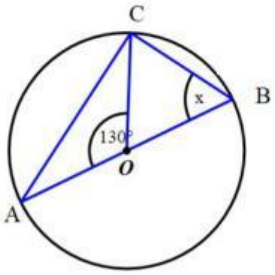

x = ---------- องศา

6)

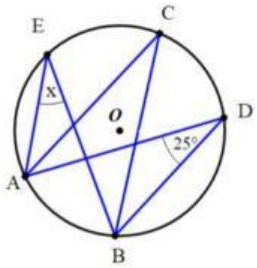

x = ---------- องศา

7)

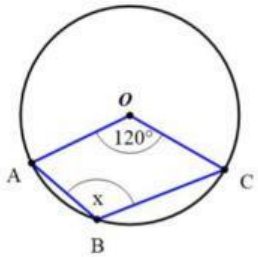

x = ---------- องศา

8)

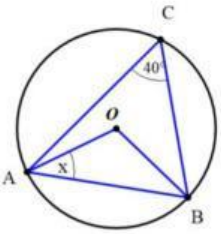

x = ---------- องศา

9)

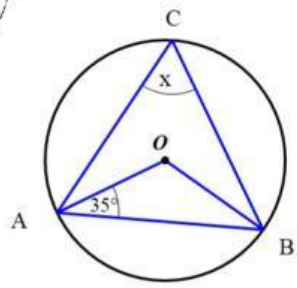

x = ---------- องศา

10)

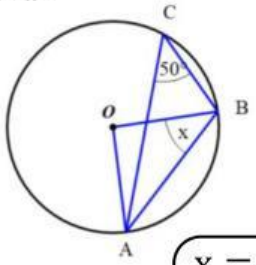

x = ---------- องศา

LIVEWORKSHEETS