(ورقة عمل تفاعلية)	تطابق المضلعات	متوسطة صبيا الأولى

الاسم:..... الصف ثاني متوسط/

السؤال الأول: أختر الإجابة الصحيحة:

- لدينا المستطيلان التاليان

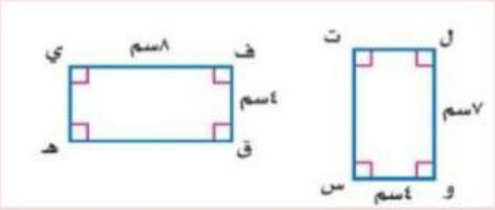

(a) متطابقان (b) غير متطابقان

- المضلعان في الشكل المجاور متطابقان فيكون:

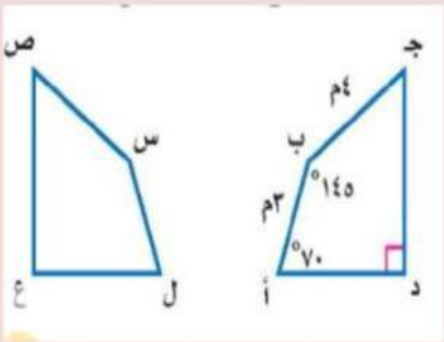

قياس س ص:

(a) ٣ م (b) ٤ م (c) ٧ م

ق ∠ ل :

(a) ٧٠ (b) ١٤٥ (c) ١٨٠

- لدينا المثلثان التاليان

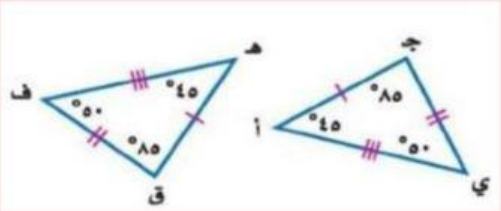

(a) متطابقان (b) غير متطابقان

- المثلثان أ ب جـ ، س ص ع متطابقان فأي العبارات التالية صحيحة:

(a) $\overline{\text{أ ب}}$ = $\overline{\text{س ص}}$ (b) $\overline{\text{ب جـ}}$ = $\overline{\text{س ع}}$ (c) ∠ أ = ∠ ص

السؤال الثاني: في الشكل المجاور، المضلعان أ ب جـ د، هـ ع ل ن متطابقان،

ضع ✓ أو ✗ :

- $\overline{\text{أ د}}$ = ١٣ سم
- ق ∠ ن = ٧٦
- ق ∠ هـ = ق ∠ أ

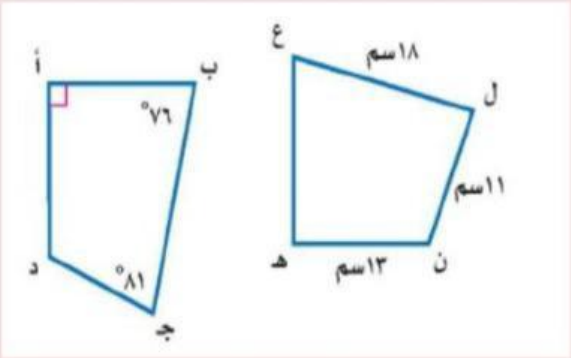

LIVEWORKSHEETS