E- LKPD ETNOMATEMATIKA

Persegi dan Persegi Panjang

Ngidang, Kambangan, dan Bolo Sebatang

START

NAMA :

Kelas :

LIVEWORKSHEETS

E- LKPD ETNOMATEMATIKA

Kata Pengantar

Capaian Pembelajaran

Petunjuk Penggunaan

Materi

Contoh Soal

Latihan

Profil Pembuat

LIVEWORKSHEETS

E- LKPD ETNOMATEMATIKA

KATA PENGANTAR

Alhamdulillahirobbil'alamin, puji syukur kehadirat Allah SWT karena atas rahmat dan karunia-Nya sehingga lembar kerja Peserta Didik Elektronik (LKPD) Etnomatematika dengan materi Luas Persegi dan Persegi panjang ini dapat diselesaikan dengan baik. Tujuan pembuatan LKPD ini ialah untuk menyelesaikan tugas Mata Kuliah Desain Komputer.

Penulis menyadari bahwa dalam pembuatan E-LKPD ini terdapat banyak kekurangan. Oleh karena itu kritik dan saran yang membangun dari pembaca dapat menjadi evaluasi atau perbaikan sehingga E-LKPD Etnomatematika "Persegi dan Persegipanjang Ngidang, Kambangan, dan Bolo sebatang" menjadi semakin baik. Semoga bahan ajar ini bermanfaat untuk seluruh pihak. Serta dapat menambah wawasan dan keterampilan bagi peserta didik.

Palembang, Oktober 2023

Penulis

LIVEWORKSHEETS

E- LKPD ETNOMATEMATIKA

Capaian Pembelajaran

peserta didik dapat menentukan keliling dan luas berbagai bentuk bangun datar (segitiga, segiempat, dan segibanyak) serta gabungannya.

Petunjuk Penggunaan

1. Bacalah dan pahami uraian materi yang disajikan dalam E-LKPD. Jika ada materi yang kurang jelas segarah tanyakan ke guru.

2. Kerjakan setiap kegiatan, contoh soal dan latihan untuk melatih kemampuan konseptual dan literasi lingkunganmu

LIVEWORKSHEETS

E- LKPD ETNOMATEMATIKA

Sejarah Penyajian Makan Khas Palembang

Mengenal Persegi dan Persegi Panjang



LIVEWORKSHEETS

Cocokan Gambar dibawah ini!

NGIDANG

KAMBANGAN

BOLO SEBATANG

LIVEWORKSHEETS

E- LKPD ETNOMATEMATIKA

Carilah kata mengenai penyajian makan khas palembang dan persegi

K	E	B	A	L	S	K	H	K	X
D	A	K	P	K	A	I	K	K	S
K	K	M	K	U	U	B	S	K	E
K	K	K	B	O	L	O	A	I	B
J	L	E	B	A	R	U	K	R	A
N	G	I	D	A	N	G	R	K	T
A	P	E	R	S	E	G	I	K	A
P	A	N	J	A	N	G	A	K	N
F	K	K	E	L	I	L	I	N	G

LIVEWORKSHEETS

Contoh Soal

1. **Suatu persegi panjang memiliki panjang 28 cm dan lebar 9 cm, maka luasnya adalah .... cm²**

a	242	c	252
b	250	d	262

2. **Panjang sepra bolo sebatang 55 meter dan lebarnya 33 meter. Kelilig kolam ikan tersebut adalah .... m**

a	170	c	174
b	172	d	176

3. **Sebuah persegi memiliki keliling sebesar 32 cm. Berapakah panjang dari sisi persegi tersebut?**

LIVEWORKSHEETS

Persegi dan Persegi panjang pada Ngidang, Kambangan, dam Bolo Sebatang

1. Berbentuk bangun datar segi empat apa sepra yang digunakan untuk penyajian makan pada Bolo sebatang?

2. Seseorang mengadakan sebuah acara pernikahan menggunakan tradisi kambangan. Jika diketahui ruang tengah yang mirip dengan sumur memiliki sisi 8 cm dan lebar spra 2 cm. Maka berapa luas spra yang dibutuhkan?

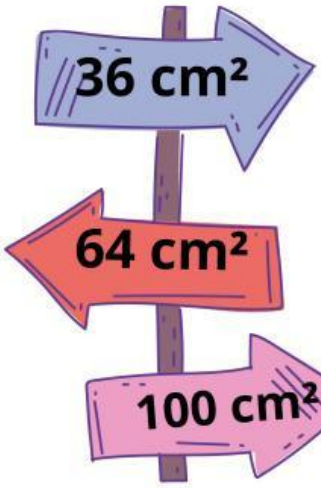

Jawablah menggunakan icon mic!

LIVEWORKSHEETS

Untuk Mengasah Pengetahuan kalian

AYO KITA LATIHAN SOAL

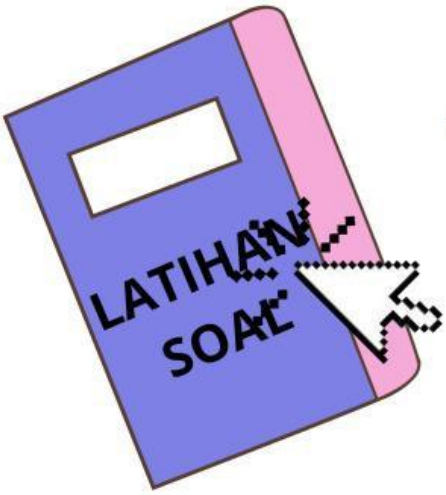

LIVEWORKSHEETS

Profil Penulis

Nama : Nawirah Sajwani F
NIM : 2120206029
TTL : Plg, 29 Sept 2003
Kelas : Matematika 2
Dosen Pengampuh : Harisman Nizar, M.Pd
Mata Kuliah : Desain Media Komputer

LIVEWORKSHEETS