Lembar Kerja Peserta Didik

MENGENAL LELUHUR BANGSA INDONESIA

Identitas Kelompok :

1. .....
2. .....
3. .....
4. .....
5. .....
6. .....

LIVEWORKSHEETS

MENGENAL LELUHUR BANGSA INDONESIA

"Semua hal di dunia ini akan berubah, kecuali satu yang tidak akan berubah yaitu perubahan itu sendiri"

Capaian Pembelajaran :

Pada akhir fase ini, peserta didik mampu memahami dan memiliki kesadaran akan keberadaan diri serta mampu berinteraksi dengan lingkungan terdekatnya. Ia mampu menganalisis hubungan antara keragaman kondisi geografis nusantara terhadap pembentukan kemajemukan budaya.

Tujuan Pembelajaran :

- **Melalui aktivitas kolaborasi dan komunikasi, peserta didik dapat mengidentifikasi teori mengenai asal usul nenek moyang bangsa Indonesia melalui media pembelajaran yang ada dengan tepat.**
- **Melalui aktivitas kolaborasi dan komunikasi, peserta didik dapat menguraikan teori mengenai asal usul nenek moyang bangsa Indonesia dalam LKPD secara berkelompok dengan tepat dan penuh tanggung jawab.**
- **Melalui aktivitas kolaborasi dan komunikasi, peserta didik dapat menganalisis teori mengenai asal usul nenek moyang bangsa Indonesia dari hasil diskusi bersama kelompok dengan tepat.**

LIVEWORKSHEETS

PETUNJUK PENGERJAAN

- Kerjakan LKPD secara berkelompok.
- Gunakan sumber literasi dari buku paket atau media online sebagai alat bantu.
- Baca setiap instruksi pada setiap tugas secara cermat
- Jika mengalami kesulitan dalam mengerjakan, konsultasikan bersama guru.

1. Lengkapilah Tabel 4 Teori asal-usul leluhur bangsa Indonesia dibawah ini !

Teori Out Of Africa	**Teori yang dikemukakan :**
	Tokoh yang mendukung :
Bukti Pendukung Teori ini :	

Teori Out Of Yunan	**Teori yang dikemukakan :**
	Tokoh yang mendukung :
Bukti Pendukung Teori ini :	

LIVEWORKSHEETS

Teori Out Of Taiwan	**Teori yang dikemukakan :**
	Tokoh yang mendukung :
Bukti Pendukung Teori ini :	

Teori Nusantara	**Teori yang dikemukakan :**
	Tokoh yang mendukung :
Bukti Pendukung Teori ini :	

LIVEWORKSHEETS

2. Berikut merupakan peta jalur kedatangan nenek moyang ke Indonesia. Identifikasikan peta jalur tersebut secara tepat !

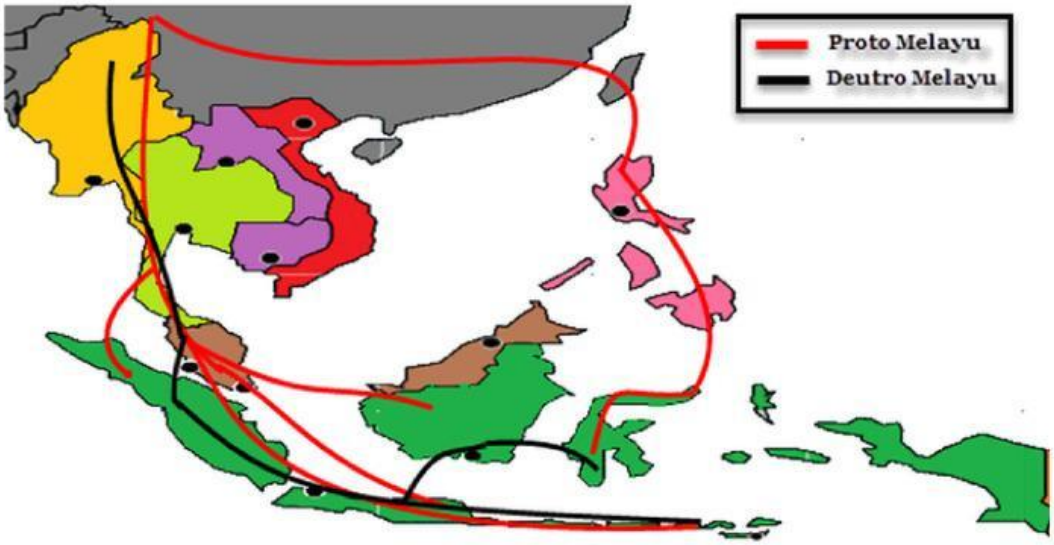

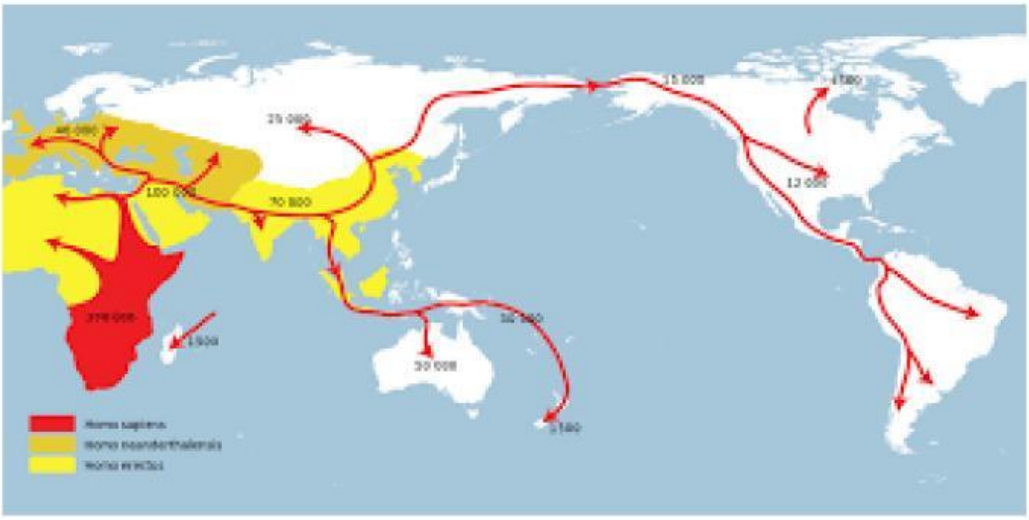

LIVEWORKSHEETS

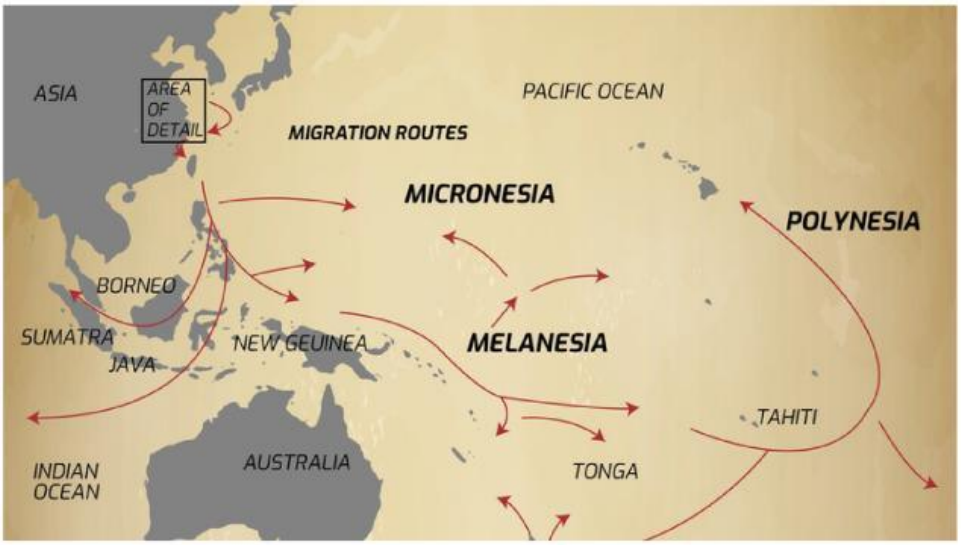

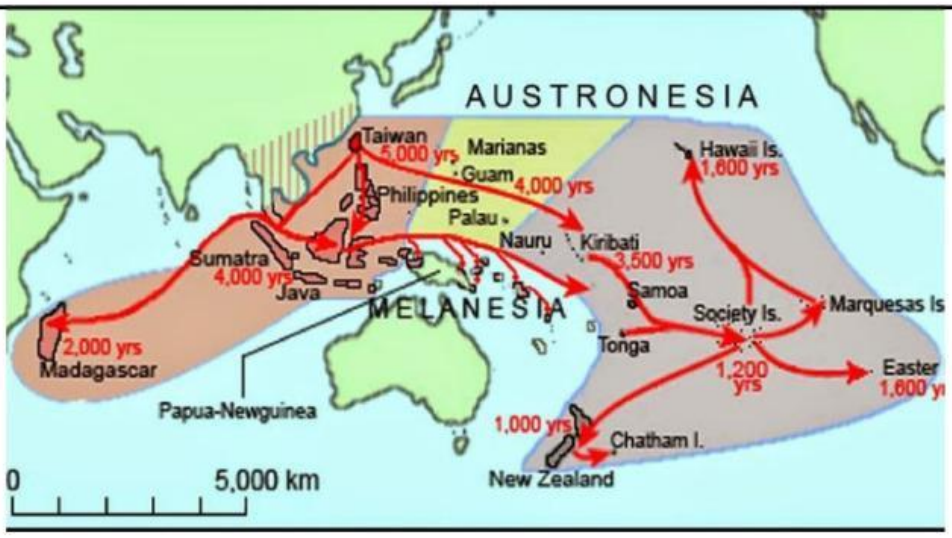

LIVEWORKSHEETS

3. Simaklah video dibawah ini !

Setelah menonton video tersebut, kalian dapat mengelompokkan macam-macam suku/ras dibawah ini berdasarkan gelombang migrasinya !

MELANESOID	PROTO MELAYU	DEUTRO MELAYU
○ _____	○ _____	○ _____
○ _____	○ _____	○ _____
○ _____	○ _____	○ _____
○ _____	○ _____	○ _____

LIVEWORKSHEETS

KETERANGAN

1. suku Nias

2. suku Asmat

3. suku Jawa

4. suku Minangkabau

5. suku Batak

6. suku dayak

7. suku Dani

8. suku sasak

LIVEWORKSHEETS