Строение человека

ФИО _____

1 Соотнесите название систем органов с их изображением



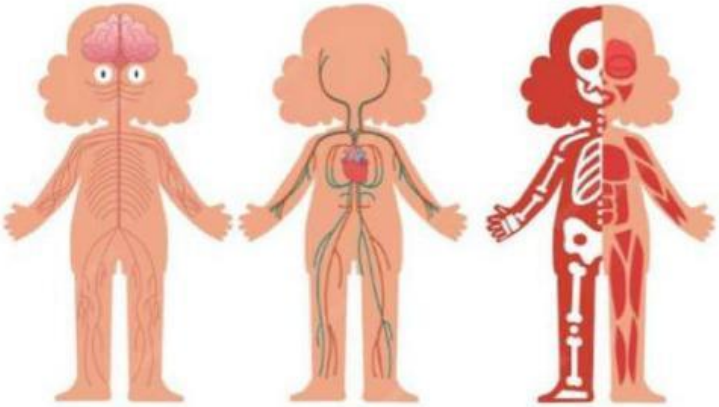

pageborders.org

LIVEWORKSHEETS

Строение человека

2 Выберите верный вариант ответа

Как мозг управляет органами?

НИКАК

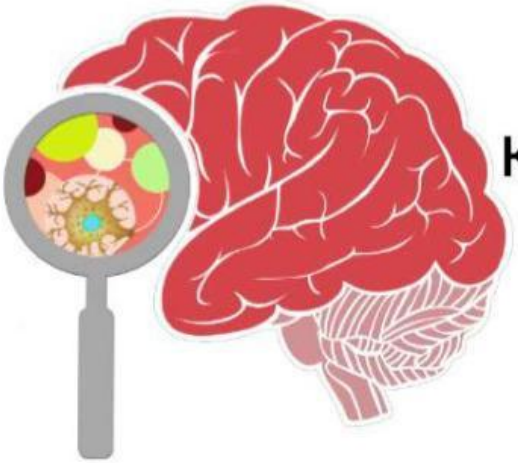

через кровеносную систему

посылает импульс органам по спинному мозгу

pageborders.org

LIVEWORKSHEETS