**1** Обери пару перпендикулярних прямих

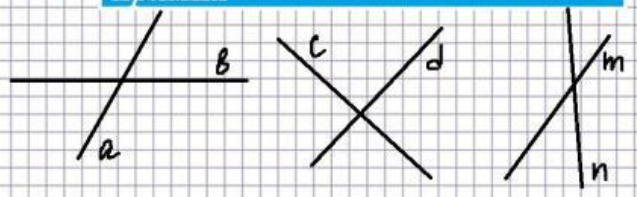


**2** Прямі, які перетинаються під кутом $90^0$, називаються

- мимобіжні
- паралельні
- перпендикулярні

**3** В прямокутнику перпендикулярними є прямі

- AB і BC
- CD і AB
- AD і BC




**4** Чи будуть відрізки AB і CD перпендикулярними, якщо $a \perp b$ ?

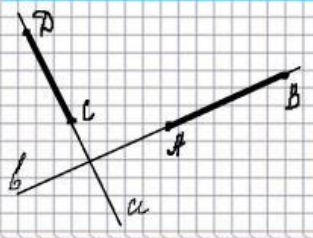


- так
- ні
- визначити неможливо

**5** Які прямі є перпендикулярними до прямої ML?

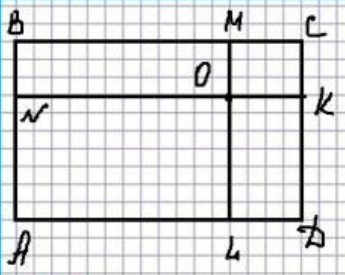


- AB
- BC
- CD
- NK

**6** Як позначають перпендикулярні прямі при записах?

- $a \parallel b$
- $a \perp b$
- $a \llcorner b$
- $a \angle b$

**7**

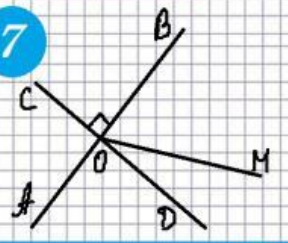


Якщо $\angle DOM = 48^0$, то $\angle AOM =$

LIVEWORKSHEETS