LATIHAN SOAL PERPINDAAHAN KALOR

NAMA: _____ (7) (A) (S) (M) (P)

JAWABANLAH SOAL DIBAWAH INI DENGAN TEPAT!

1. PERPINDAHAN KALOR DAPAT DILAKUKAN DENGAN CARA _____, _____ , DAN _____

2. PERPINDAHAN KALOR DENGAN CARA **KONDUKSI** TERJADI TANPA ADANYA PERPINDAHAN _____

3. **KONVEKSI** ADALAH PERPINDAHAN KALOR DARI SATU TEMPAT KE TEMPAT LAIN _____ DENGAN PARTIKEL-PARTIKEL BENDANYA

4. **RADIASI** MERUPAKAN PERPINDAHAN PANAS YANG DIPANCARKAN SUATU BENDA TANPA MEMERLUKAN _____

5. Jodohkanlah dengan cara menarik garis di sebelah kiri dan kanan sesuai pilihan jawaban yang benar!

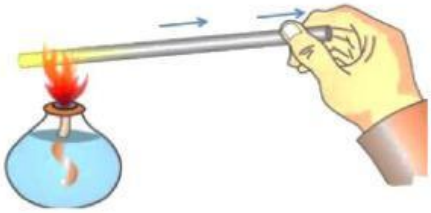

- KONDUKSI
- KONVEKSI
- RADIASI

LIVEWORKSHEETS

PERPINDAHAN KALOR

PILIHLAH OPSI JAWABAN DI SEBELAH KANAN!

KERJAKAN DENGAN BENAR

06 PERPINDAHAN KALOR MELALUI ZAT TANPA DISERTAI PERPINDAHAN PARTIKEL-PARTIKELNYA DISEBUT ....

OPSI JAWABAN

A. KONVEKSI
C. KONDUKSI
B. ISOLATOR
D. RADIASI

07 SEBATANG LOGAM DIPANASKAN PADA SALAH SATU UJUNGNYA, LAMBAT LAUN UJUNG BATANG LOGAM LAINNYA MULAI TERASA PANAS SEPERTI YANG DITUNJUKAN PADA GAMBAR. PERISTIWA INI MERUPAKAN PERPINDAHAN KALOR DENGAN CARA ....

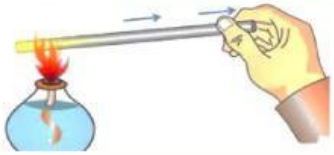

OPSI JAWABAN

A. KONVEKSI
C. KONDUKSI
B. ISOLATOR
D. RADIASI

08 PERPINDAHAN KALOR YANG TERJADI PADA GAMBAR SESEORANG YANG SEDANG MEMASAK AIR BERDASARKAN NOMOR YANG DITUJUKAN NOMOR 1 ADALAH ....

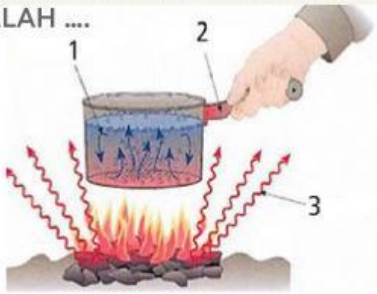

OPSI JAWABAN

A. KONVEKSI
C. KONDUKSI
B. ISOLATOR
D. RADIASI

09 PERPINDAHAN KALOR YANG TERJADI PADA GAMBAR SESEORANG YANG SEDANG MEMASAK AIR BERDASARKAN NOMOR YANG DITUJUKAN NOMOR 2 ADALAH ....

OPSI JAWABAN

A. KONVEKSI
C. KONDUKSI
B. ISOLATOR
D. RADIASI

10 PERPINDAHAN KALOR YANG TERJADI PADA GAMBAR SESEORANG YANG SEDANG MEMASAK AIR BERDASARKAN NOMOR YANG DITUJUKAN NOMOR 3 ADALAH ....

OPSI JAWABAN

A. KONVEKSI
C. KONDUKSI
B. ISOLATOR
D. RADIASI

LIVEWORKSHEETS