UNIDAD EDUCATIVA PARTICULAR
"SAN ANTONIO DE PADUA"
EDUCAR, AMAR Y SERVIR
AÑO LECTIVO 2023 – 2024
INFORMÁTICA

EVALUACIÓN PRIMER TRIMESTRE

Tercero A, B

1.- Arma el ícono de Microsoft Word y coloca las figuras en el lugar correcto.

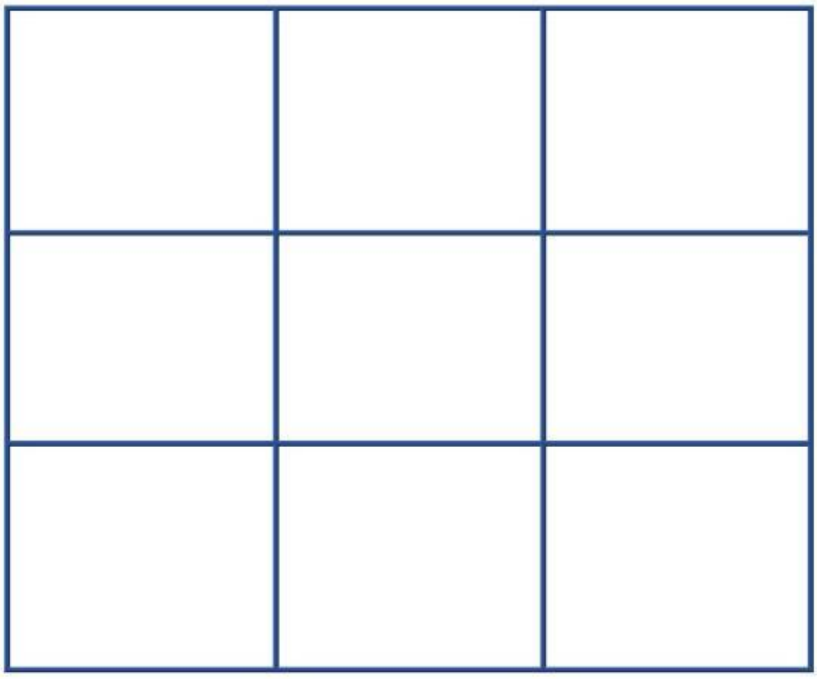



LIVEWORKSHEETS

2. Seleccione la respuesta correcta segùn corresponda al tema dispositivos del computador.

a) ¿Què Dispositivo es un Perifèrico de Entrada?

CPU

Micròfono

Teclado

Monitor

Impresora

b) Los dispositivos de salida son todos aquellos mediante los cuales el computador:

Logra guardar información.

Permite ver toda la informaciòn.

Controla los otros dispositivos.

LIVEWORKSHEETS

c) Los pèrifericos de un computador son:

Dispositivos electrónicos y físicos que se conectan al computador.

Todo aquello que no puedo ver del computador.

d) Los usos màs comunes del programa Microsoft Word son:

Redactar una carta

Dibujar imágenes

Realizar investigaciones

Cálculos matemáticos

LIVEWORKSHEETS

3. Ubica los nombres de los siguientes dispositivos en el siguiente crucigrama relacionandolos con su imagen:

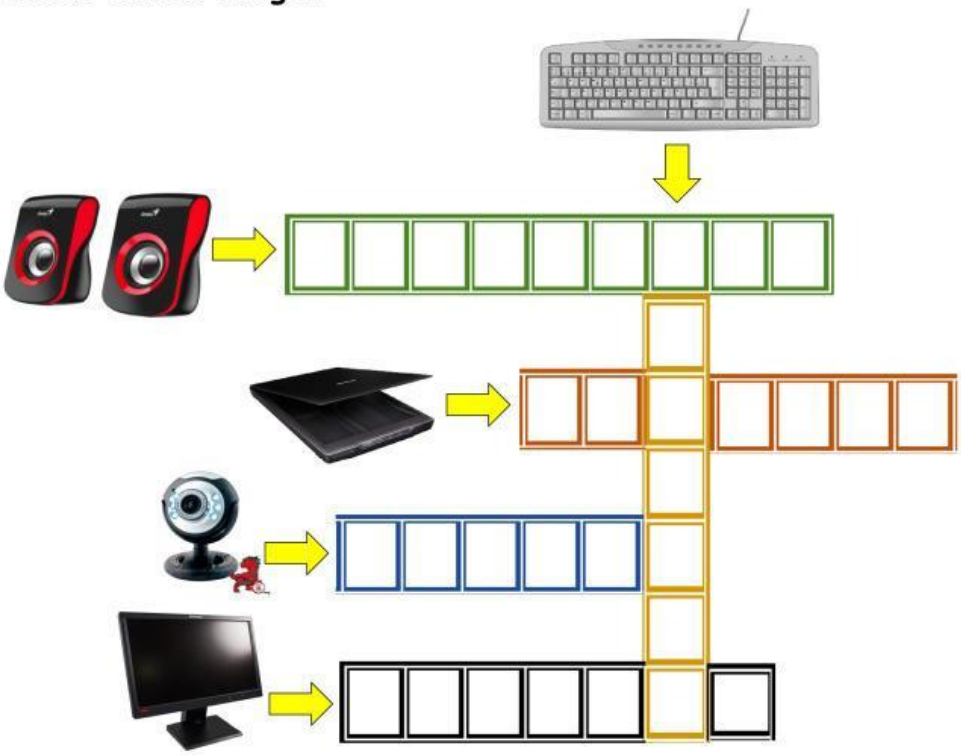

LIVEWORKSHEETS

4. Encuentra los nombres de los siguientes dispositivos del computador en esta pequeña sopa de letras:

R	U	N	C	P	U	A	L	L	C
E	N	M	O	U	S	E	I	E	P
N	E	T	C	B	U	B	M	Q	W
N	T	V	T	E	C	L	A	D	O
A	E	B	E	P	U	G	J	U	P
C	S	E	T	N	A	L	R	A	P
S	R	O	T	I	N	O	M	C	V
J	A	N	U	A	R	G	U	A	Y
U	I	M	P	R	E	S	O	R	A
E	C	A	M	A	R	A	C	O	L

a. Cámara c. Monitor
b. Cpu d. Mouse

e. Scanner g. Parlantes
f. Teclado h. Impresora

LIVEWORKSHEETS

5.- Une con una línea cada formato de fuente de Microsoft Word con su ícono correspondiente:

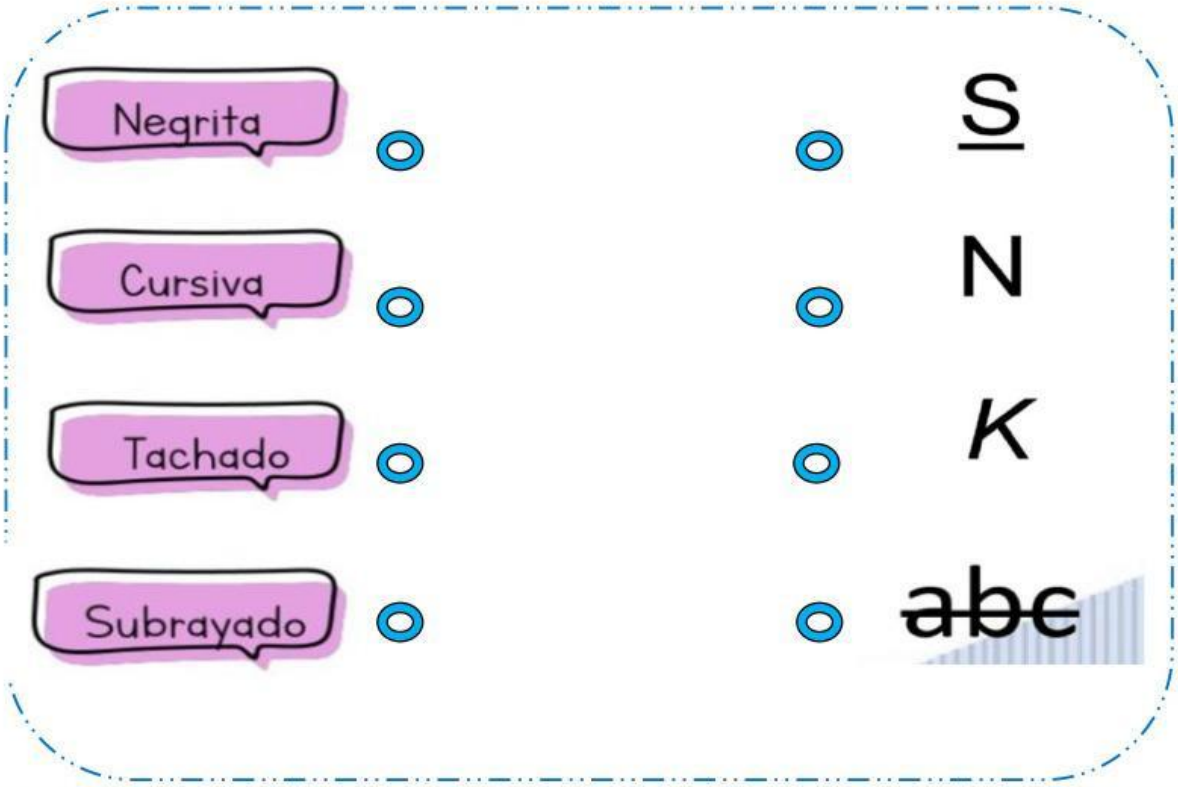

LIVEWORKSHEETS