Scanner: nvthanh183@gmail.com

Họ và tên : ..... *Lớp :* .....

PHIẾU BÀI TẬP TOÁN - TUẦN 2

Trừ các số có ba chữ số (có nhớ một lần)
Ôn tập các bảng nhân. Ôn tập các bảng chia

1. Đặt tính rồi tính :

875 – 583 ....

587 – 79 ....

650 – 635 ....

827 – 9 ....

2. Viết số thích hợp vào ô trống :

Số bị trừ	538	784		961
Số trừ	465	69	547	
Hiệu			243	456

3. Tính nhẩm :

a) 2 × 3 = ... 3 × 4 = ... 4 × 2 = ... 5 × 3 = ...
2 × 5 = ... 3 × 5 = ... 4 × 5 = ... 5 × 6 = ...
2 × 7 = ... 3 × 8 = ... 4 × 8 = ... 5 × 7 = ...
2 × 6 = ... 3 × 9 = ... 4 × 7 = ... 5 × 9 = ...

b) 200 × 4 = ... 300 × 3 = ... 400 × 2 = ...
500 × 2 = ... 300 × 2 = ... 500 × 1 = ...

4. Tính nhẩm :

a) 12 : 3 = ... 14 : 2 = ... 24 : 4 = ... 35 : 5 = ...
18 : 3 = ... 18 : 2 = ... 16 : 4 = ... 45 : 5 = ...
27 : 3 = ... 12 : 2 = ... 32 : 4 = ... 20 : 5 = ...
15 : 3 = ... 20 : 2 = ... 36 : 4 = ... 50 : 5 = ...

b) 800 : 2 = ... 600 : 3 = ... 800 : 4 = ...
900 : 3 = ... 600 : 2 = ... 500 : 5 = ...

5. a) Tô màu vào $\frac{1}{4}$ số con vịt :

(1)

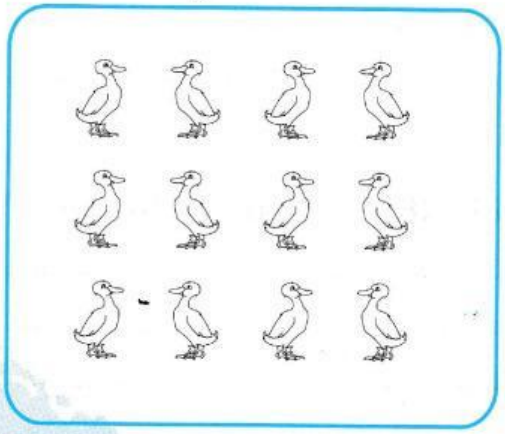

(2)

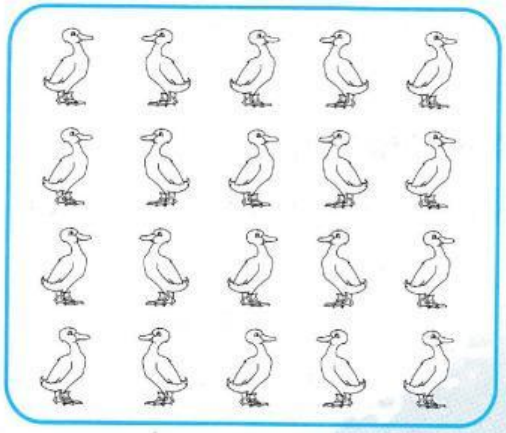

LIVEWORKSHEETS

Scanner: nvthanh183@gmail.com

b) Nối mỗi phép tính với kết quả của phép tính đó :

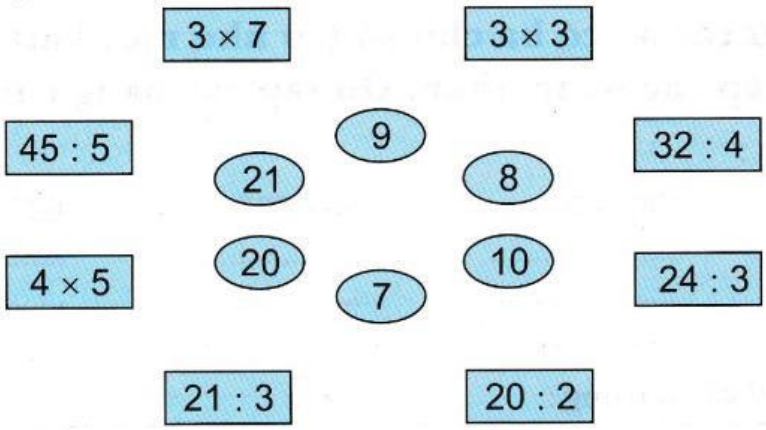

6. Tính (theo mẫu) :

Mẫu : $2 \times 8 + 35 = 16 + 35$

$= 51$

a) $5 \times 7 + 59$ = ...

= .....

b) $4 \times 9 - 27$ = ...

= .....

c) $36 : 4 + 86$ = ...

= .....

d) $25 : 5 \times 9$ = ...

= .....

7. Có 6 thùng nước mắm, mỗi thùng có 100*l* nước mắm.

a) Hỏi có tất cả bao nhiêu lít nước mắm ?

b) Nếu số lít nước mắm đó chứa đều vào 3 thùng to thì mỗi thùng có bao nhiêu lít nước mắm ?

Bài giải

.....

.....

.....

.....

.....

8 Tìm x (theo mẫu) :

Mẫu : $x + 27 = 35 + 9$

$x + 27 = 44$

$x = 44 - 27$

$x = 17$

a) $38 + x = 73 + 18$

.....

.....

.....

b) $x - 16 = 66 - 19$

.....

.....

.....

LIVEWORKSHEETS