NAMA : _____ KELAS : _____

RBT TAHUN 5, UNIT 1 (FUNGSI MATA JAHITAN)

JAWAB SOALAN DI BAWAH BERPANDUKAN BUKU TEKS RBT TAHUN 5 (KENALI MATA JAHITAN DAN FUNGSI MATA JAHITAN) M/S : 4 DAN 5

GAMBAR MATA JAHITAN	NAMA MATA JAHITAN	KETERANGAN DAN FUNGSI MATA JAHITAN
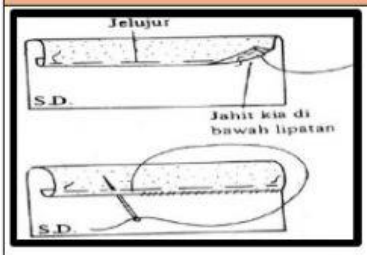	JAHITAN SEMBAT	
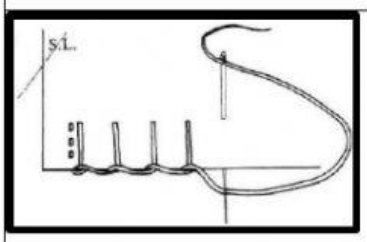	JAHITAN INSANG PARI	
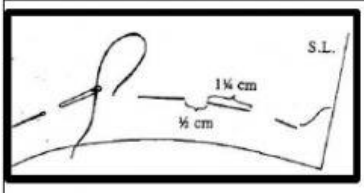	JAHITAN JELUJUR KASAR	
	JAHITAN JELUJUR HALUS	
	JAHITAN KIA	
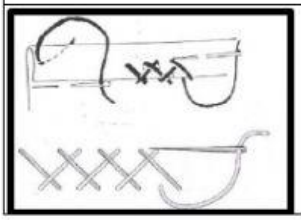	JAHITAN SILANG PANGKAH	

LIVEWORKSHEETS

PADANKAN FUNGSI MATA JAHITAN YANG BETUL

JAHITAN YANG DIGUNAKAN SEBAGAI **JAHITAN TETAP**.

JAHITAN INI UNTUK **MENGEMASKAN BAHAGIAN TEPI FABRIK** DAN SEBAGAI JAHITAN HIASAN UNTUK MENJAHIT MOTIF

JAHITAN YANG DIGUNAKAN SEBAGAI **JAHITAN TETAP**.
JAHITAN INI DIGUNAKAN **UNTUK MENJAHIT BAHAGIAN KELEPET** ATAU BAHAN HIASAN

JAHITAN YANG DIGUNAKAN SEBAGAI **JAHITAN TETAP.**
JAHITAN INI DIGUNAKAN UNTUK **MENGEMASKAN BAHAGIAN KELEPET, LIPATAN** ATAU TEPI KAIN
BOLEH JUGA SEBAGAI JAHITAN HIASAN.

JAHITAN YANG DIGUNAKAN SEBAGAI **JAHITAN TETAP**.

JAHITAN INI DIGUNAKAN UNTUK **MEMBUAT KEDUTAN ATAU SULAMAN.**

JAHITAN YANG DIGUNAKAN SEBAGAI **JAHITAN TETAP.**
JAHITAN INI JUGA DIGUNAKAN UNTUK **PERMULAAN DAN PERAKHIRAN**.
JAHITAN INI **MENGGANTIKAN JAHITAN MESIN**

JAHITAN YANG DIGUNAKAN SEBAGAI **JAHITAN SEMENTARA.**

JAHITAN INI DIGUNAKAN UNTUK **MENETAPKAN KEDUDUKAN FABRIK**

NOTA RINGKAS

KELEPET = LIPATAN KECIL PADA TEPI PAKAIAN

SULAMAN =JAHITAN SECARA RAPAT-RAPAT

FABRIK = KAIN

LIVEWORKSHEETS