Прізвище, ім'я_____

ЯКІ ЯВИЩА ПОВ'ЯЗАНІ З РУХАМИ ЗЕМЛІ ТА МІСЯЦЯ

1. Пройдіть маршрутом та запишіть відповіді

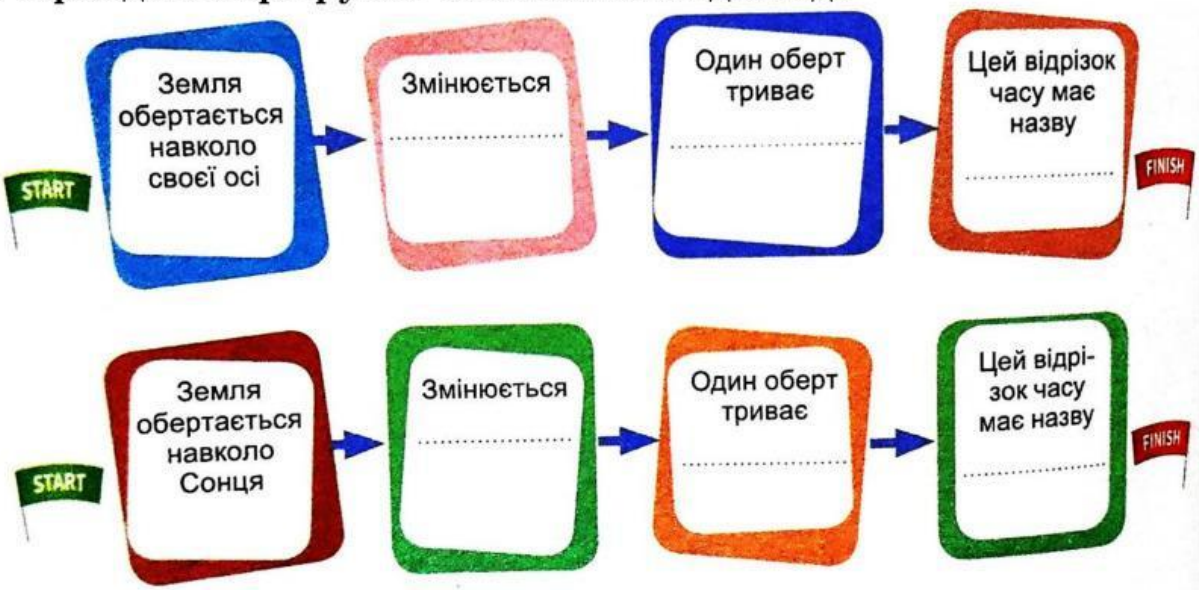

2. Доповніть речення.

Обертання Землі навколо своєї осі відбувається із _____ на схід (_____ годинникової стрілки). Обертаючись, Земля _____ то з одного боку, то з іншого. На освітленому боці триває _____, а на темному _____.

3. Розглянь малюнок (слайд 23). Укажіть, якій порі року відповідає кожна буква на малюнку.

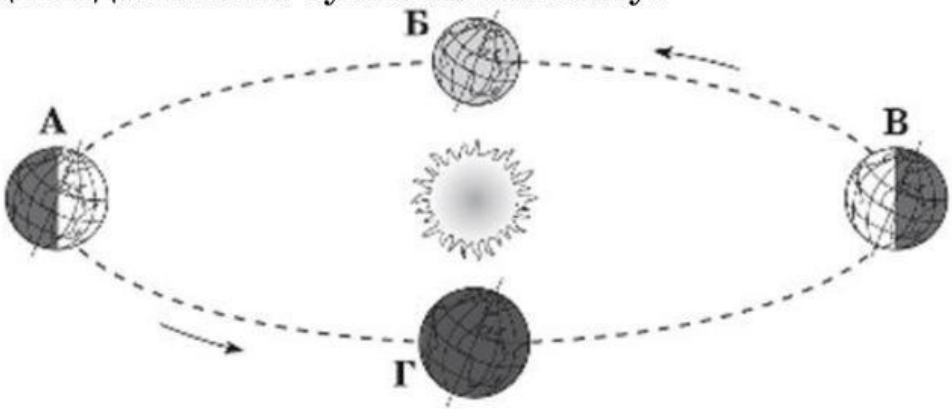

LIVEWORKSHEETS

Північна півкуля		Південна півкуля	
А		А	
Б		Б	
В		В	
Г		Г	

4. Оберіть малюнок, на якому земна поверхня отримує найбільшу кількість тепла.

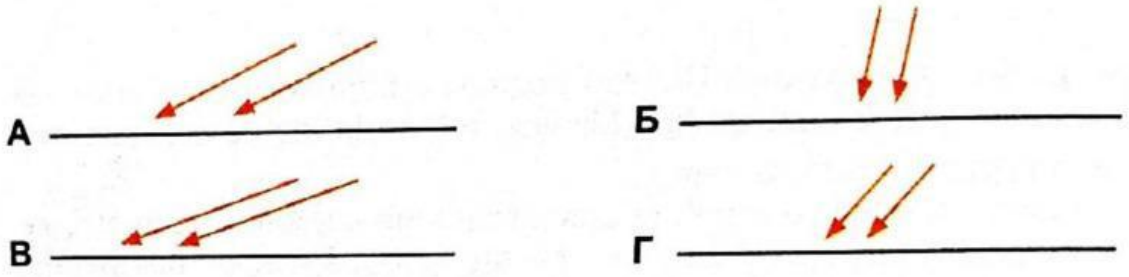

5. Визнач часовий пояс країн (міст) – карта часових поясів за посиланням (натисни блакитний прямокутний)

Україна (Київ)

Японія (Токіо)

США (Аляска)

LIVEWORKSHEETS