Pilihlah salah satu jawaban benar atau salah pada pernyataan-pernyataan berikut !

1. Perhatikan gambar berikut !

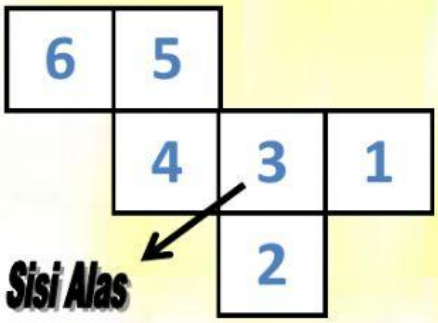

a. Gambar disamping adalah jaring-jaring balok.

Benar Salah

b. Nomor 5 merupakan tutup.

Benar Salah

c. Nomor 2 merupakan sisi depan.

Benar Salah

d. Nomor 4 adalah sisi kanan.

Benar Salah

e. Nomor 1adalah sisi kanan.

Benar Salah

2. Perhatikan gambar berikut !

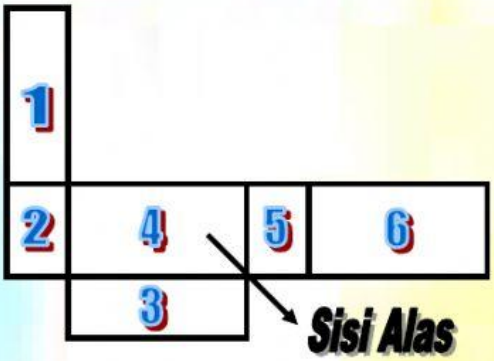

a. Nomor 6 adalah sisi kanan.

Benar Salah

b. Gambar di samping merupakan jarring-jaring balok.

Benar Salah

c. Nomor 2 adalah sisi kiri.

Benar Salah

d. Nomor 1 adalah sisi belakang.

Benar Salah

e. Nomor lima adalah sisi kiri.

Benar Salah

3. Pilihlah bentuk jarring-jaring ruang yang tepat !

a. Jaring-jaring kubus

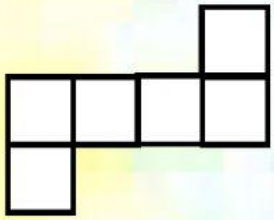



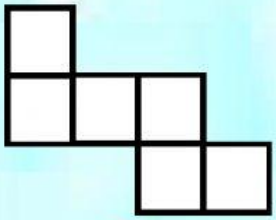

LIVEWORKSHEETS

b. Jaring-jaring balok

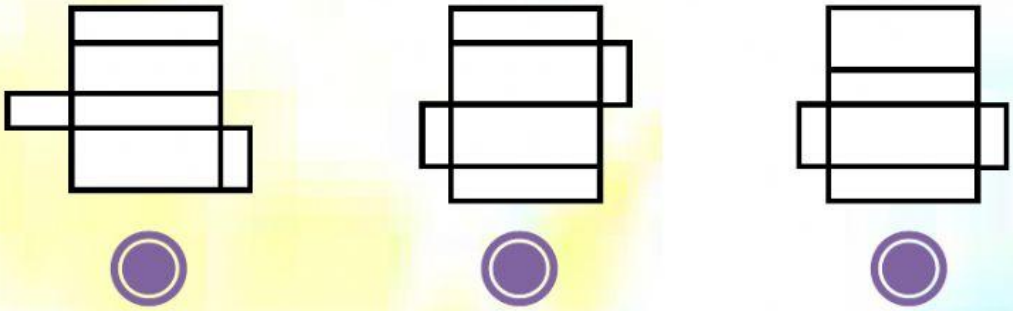

4. Perhatikan jarring-jaring bangunruang berikut !

Jika nomor 3 adalah alasnya maka, nomor berapakah yang merupakan sisi atapnya? (klik pada nomor yang menurut kalian jawabannya tepat)

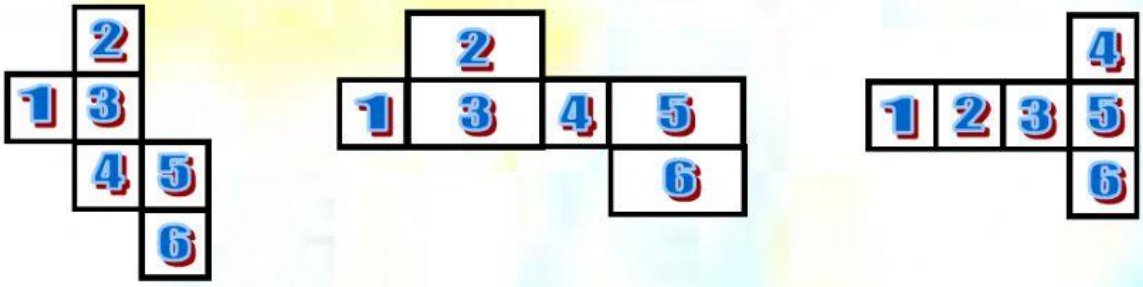

5. Perhatikan gambar berikut !

a. Agar menjadi jarring-jaring kubus, bangun persegi yang harus di hilangkan adalah nomor berapa.



b. Agar menjadi jarring-jaring balok, bagun datar yang harus dihilangkan adalah nomor berapa.

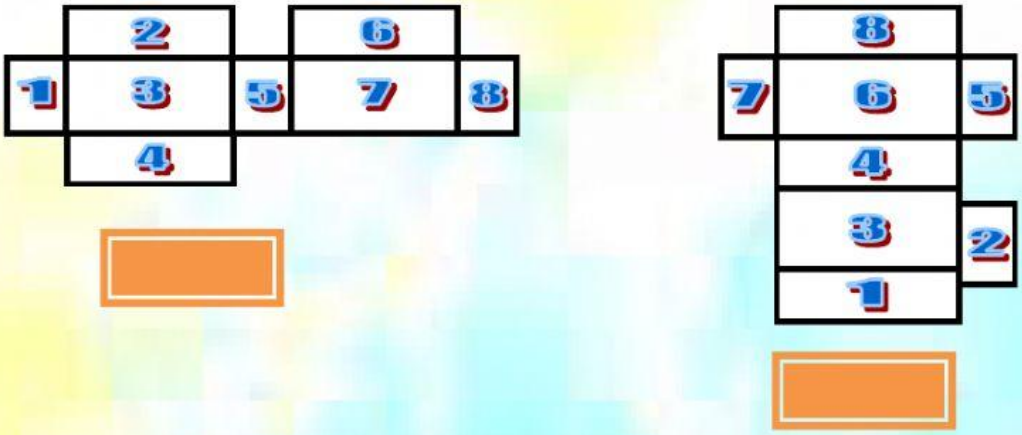

LIVEWORKSHEETS