

Segna vero o falso accanto a ogni frase

Tutte le cellule hanno i cloroplasti	**V**	**F**
La fotosintesi produce zucchero	**V**	**F**
La parete cellulare rende rigida la cellula	**V**	**F**
Tutte le cellule della radice sono in grado di riprodursi	**V**	**F**
La traspirazione è un'attività che fa perdere vapore alla foglia	**V**	**F**
Il tessuto lacunoso è nella parte superiore della foglia	**V**	**F**
Il tessuto a palizzata contiene molti cloroplasti	**V**	**F**
Gli stomi sono formati dalle cellule della guardia	**V**	**F**
La linfa elaborata passa nelle cellule del libro	**V**	**F**
Il cambio è formato da cellule che trasportano la linfa grezza	**V**	**F**

Completa:

1. La linfa grezza è formata da acqua e_____
2. La linfa elaborata è prodotta dalle _____
ed è formata da acqua e _____
3. All'estremità della radice si trovano le cellule della _____
4. Una radice formata da un'unica grossa parte centrale si chiama a_____
5. Gli stomi si trovano nella parte _____della _____
6. Nella foglia il tessuto ricco di cloroplasti si chiama_____
7. Le cellule giovani del fusto si dicono cellule del _____

LIVEWORKSHEETS

Collega ogni termine con la figura corrispondente

IMPOLLINAZIONE

GERMINAZIONE

FECONDAZIONE

FRUTTO

FORMAZIONE SEME

LIVEWORKSHEETS

Metti i termini al posto giusto

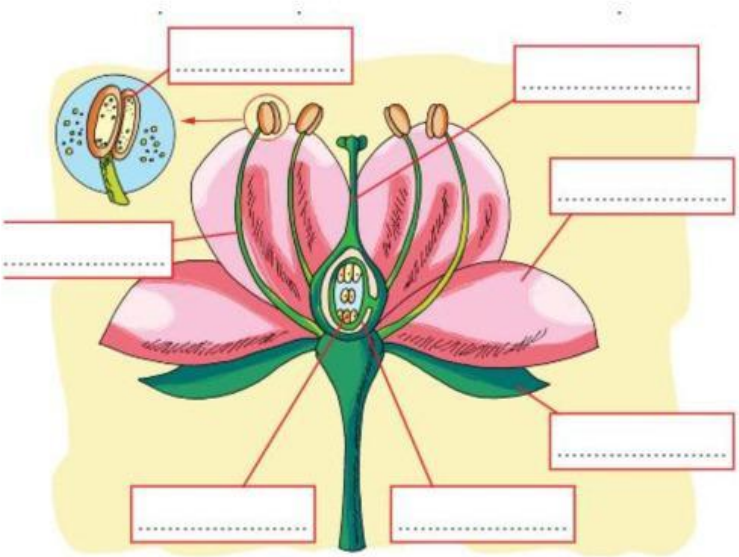

OVULI OVARIO PETALI STAME

POLLINE STILO SEPALI

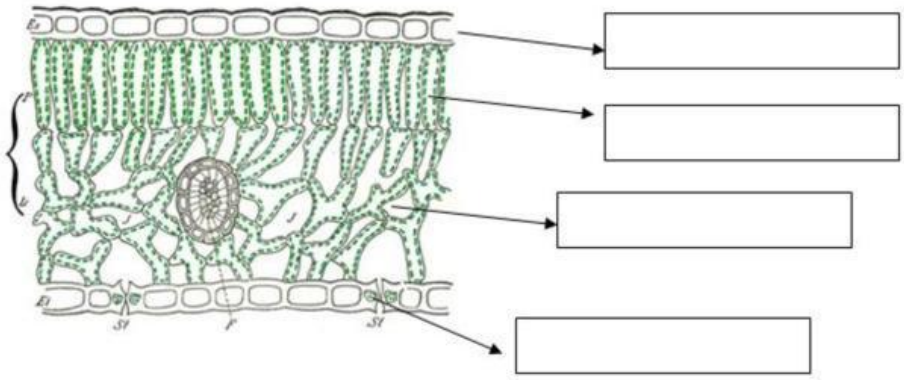

EPIDEMIDE STOMA

TESSUTO LACUNOSO TESSUTO A PALIZZATA

LIVEWORKSHEETS

Scegli il completamento corretto

Processo con cui si produce glucosio a partire da anidride carbonica e acqua.

Processo con cui si ricava energia a partire da glucosio e ossigeno

Dispersione dell'acqua in eccesso come vapore acqueo.

Movimento della linfa grezza dalle radici alle foglie e della linfa elaborata dalle foglie a tutte le parti del corpo.

Sono i prodotti della fotosintesi.

Organuli che permettono la fotosintesi.

LIVEWORKSHEETS