ชื่อ..... .....ชั้น ม.3/.....เลขที่.....

แบบฝึกหัด 3.1 ก

1. หลังคาของสิ่งปลูกสร้างที่กำหนดให้ในแต่ละข้อต่อไปนี้ มีลักษณะคล้ายพีระมิดหรือไม่ เพราะเหตุใด

1)

2)

3)

4)

5)

6)

LIVEWORKSHEETS

2. รูปคลี่ต่อไปนี้เป็นรูปคลี่ของพีระมิดชนิดใด

1)

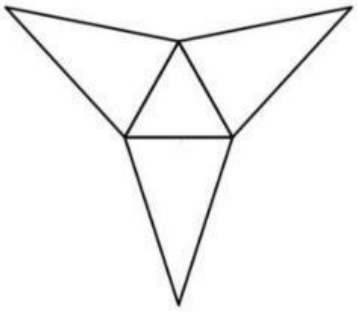

2)

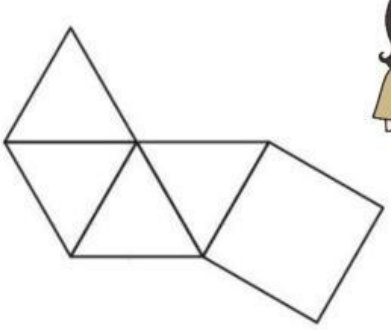

3)

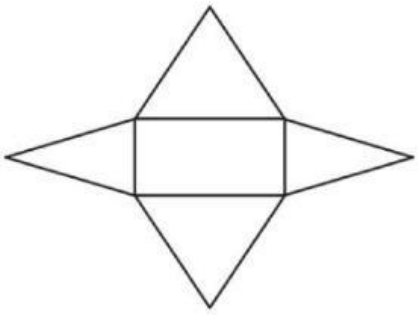

4)

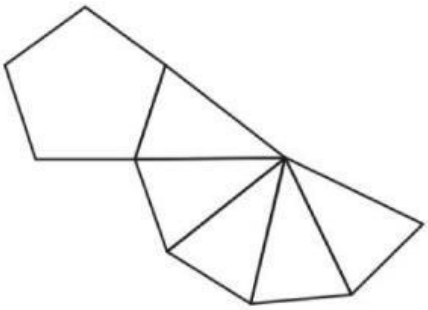

5)



6)



LIVEWORKSHEETS