مدرسة محمد الفاتح الابتدائية الأهلية

أ: محمد عبد العظيم

اسم الطالب : ..... المادة :الرياضيات الصف : الثاني :

الكسور -الكسور كأجزاء من مجموعة

السؤال الأول : اختر الإجابة الصحيحة من بين الأقواس

العدد العلوي يمثل عدد الأشياء المتماثلة التي نريد التعبير عنها بينما يمثل العدد السفلي عدد جميع الأشياء ضمن مجموعة



الكسر الدال على الأشياء الملونة بالأحمر هو $\frac{١}{١٠}$ (نعم لا)

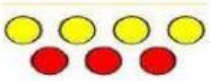

الكسر الدال على الأشياء الملونة بالأحمر هو $\frac{٣}{٧}$ (نعم لا)



الكسر الدال على الأشياء الملونة بالأحمر هو $\frac{٥}{٦}$ (نعم لا)

الكسر الدال على الأشياء الملونة بالأحمر هو $\frac{٢}{٥}$ (نعم لا)

السؤال الثاني : ضع كلمة (صح أو خطأ) أمام الإجابة المناسبة



الكسر الدال على الأشياء الملونة بالأحمر هو $\frac{٥}{٥}$ (.....)



الكسر الدال على الأشياء الملونة بالأحمر هو $\frac{٢}{٤}$ (.....)



الكسر الدال على الأشياء الملونة بالأحمر هو $\frac{١}{٤}$ (.....)

LIVEWORKSHEETS