LATIHAN ASESMEN NASIONAL

PERTEMUAN KE-3

1. Ayo kita cermati gambar dibawah ini!

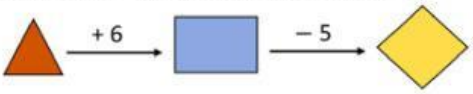

Pasangkanlah angka-angka yang tepat di dalam setiap dan !

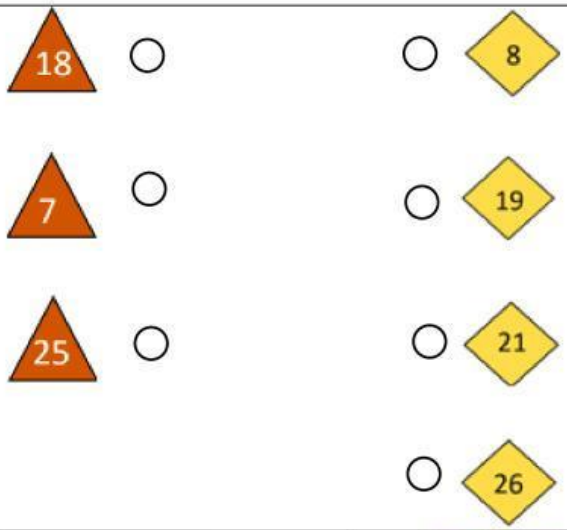

2. Ibu Siti Penjual *Milkshake*
   Ibu Siti adalah penjual *milkshake*.
   Setiap hari dia menghabiskan banyak susu untuk membuat *milkshake*.
   Banyak susu yang biasa digunakan ibu Siti sebagai berikut:

1 karton kecil = 2 cup

1 karton besar = 2 karton kecil

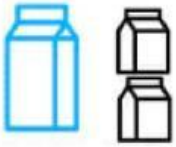

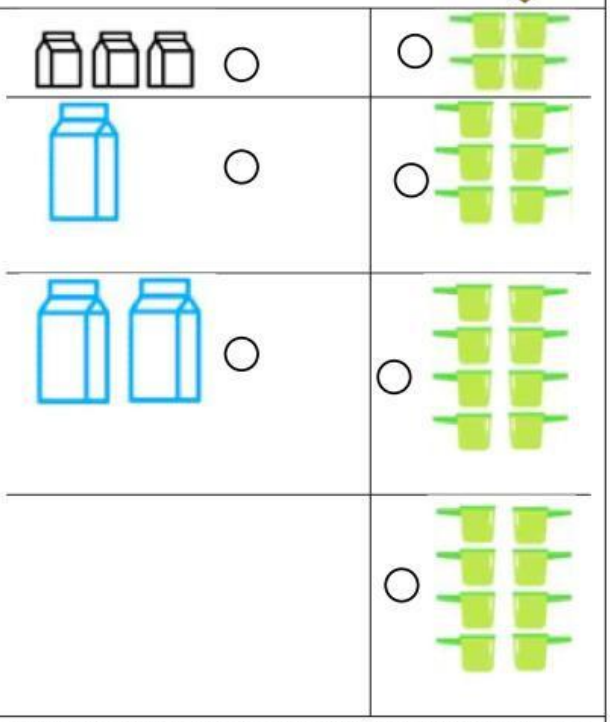

Ibu Siti kekurangan bahan susu untuk membuat pesanan. Ibu Siti pergi ke toko untuk membelinya. Tiba di toko, ternyata ada ukuran baru untuk susu.

Ibu Siti membeli susu dengan kemasan 1 galon dan 2 karton kecil.
Lalu ada pembeli lain yang membeli susu dengan kemasan 3 karton besar dan 2 karton kecil.

Siapakah yang membeli susu paling banyak, ibu Siti atau pembeli lain? Mengapa?
Jawab :

LIVEWORKSHEETS

Katamino

Katamino adalah salah satu permainan asah otak. Permainan ini membantu pengembangan kemampuan spasial. Permainan ini terbuat dari kayu. Perhatikan bentuk dua susunan katamino berikut!

Susunan katamino A

Susunan katamino B



Perhatikan gambar susunan katamino A!
Bentuk susunan katamino A akan diganti dengan susunan kubus.

3. Tentukan **benar** atau **salah** untuk setiap pernyataan berikut!
   a. Susunan katamino A dapat disusun dengan menggunakan 10 kubus. ( )
   b. Susunan katamino A yang berwarna hijau dapat disusun dengan menggunakan 6 kubus. ( )
4. Susunan katamino B akan diganti dengan susunan balok dan kubus. Ukuran balok sama dengan ukuran dua kubus seperti gambar berikut.

Berapa banyak balok maksimal yang dapat digunakan untuk menyusun bentuk susunan katamino B?

Jelaskan jawabanmu!

DONAT AMENA

Amena akan membawa kue donat untuk teman-temannya. Teman-temannya adalah Dina, Rahmi, Andi dan Putra. Ada empat macam toping donat yang dibawa Amena.

Berikut ini kue donat dibawa Amena.

5. Amena dan teman-temannya habis memakan masing-masing satu donat.
   Andi dan Putra makan donat toping gula.
   Amena, Dila dan Rahmi makan donat toping stroberi.

   Kemungkinan mana saja yang terjadi pada donat yang masih tersisa?
   Jawaban benar lebih dari satu.

   ○ Donat toping cokelat sama banyak dengan donat toping gula.

   ○ Donat toping stroberi masih tersisa satu.

   ○ Donat toping meses lebih sedikit dari donat toping gula.

LIVEWORKSHEETS