(1)أكتب اذا الدالة تصاعدية \ تنازلية\ ثابتة (اختر الجواب الملائم):

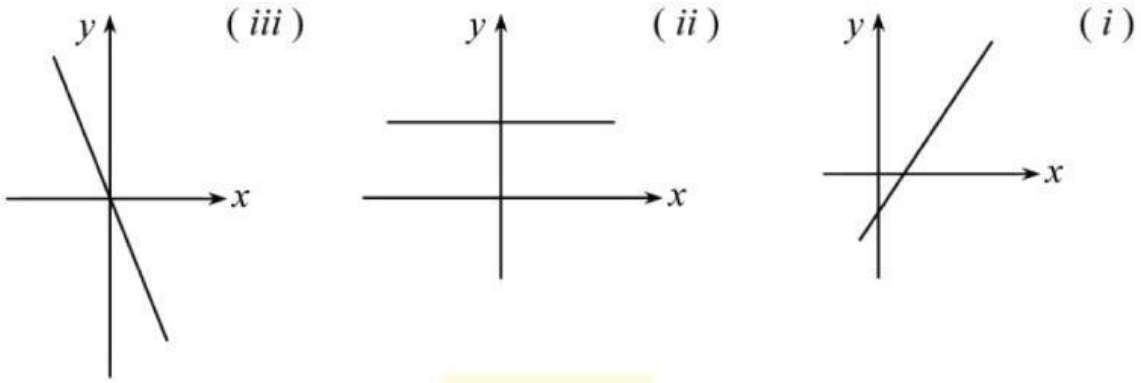

(2) أ- أكتب ما هو الميل لكل دالة من الدوال الاتية: (اختر الإجابة الصحيحة):

ب - أكتب اذا الدالة تصاعدية\ تنازلية:(اختر الإجابة الصحيحة)

(أ) $y=-3x$ (ب) $y=\frac{4x}{15}$ (ج) $y=-x$ (د) $y=\frac{x}{18}$

الميل

الدالة

LIVEWORKSHEETS

(3) معطاةٌ الدّالّة $y = 4x$.

(أ) ما هي قيمة m في الدّالّة المعطاة ؟

(ب) أكملوا الجدول حسب الدالة المعطاة

x	-2	-1	0	1	2
y					

:

(ج) الرسم البياني الملائم للرسمة (اختر الإجابة الصحيحة):

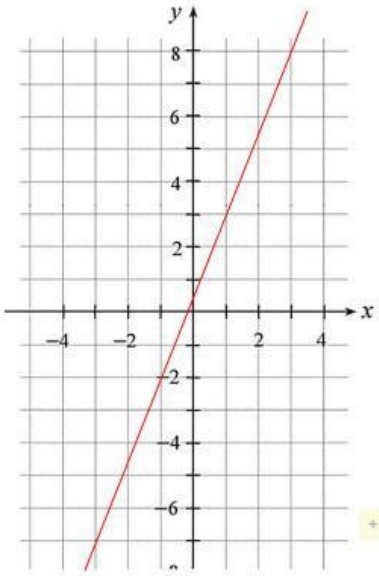

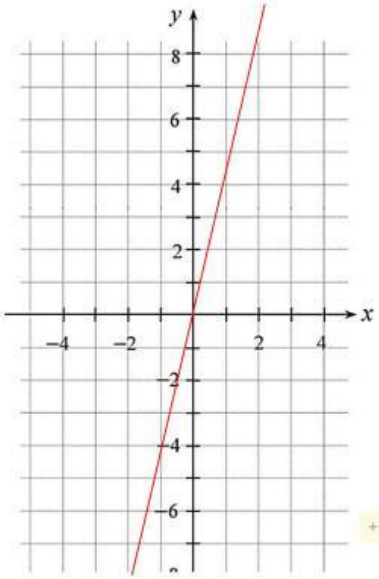

(د) الدالة هي : _____

LIVEWORKSHEETS