M.3.1.1. Generar sucesiones con sumas, restas, multiplicaciones y divisiones, con números naturales, a partir de ejercicios numéricos o problemas sencillos.

Unidad 1

TALLER TEMA 1

Nuestra identidad y los números

1. Construye sucesiones de acuerdo con lo indicado.

a) Sucesión de 5 términos, iniciando con 3 y con un patrón de formación de + 6.

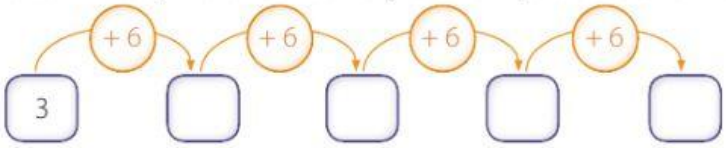

b) Sucesión de 8 términos, iniciando con 4 y con un patrón de formación de + 10.

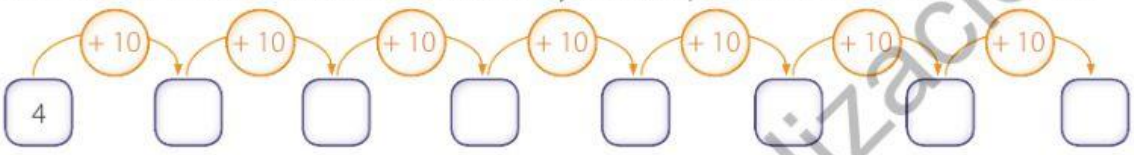

c) Sucesión de 6 términos, iniciando con 26 y con un patrón de formación de – 3.

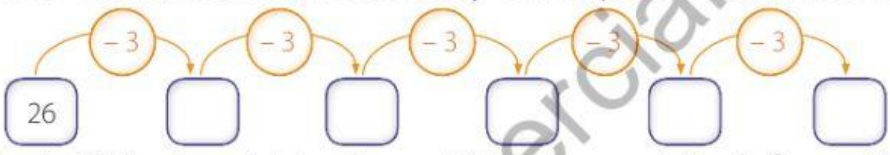

d) Sucesión de 10 términos, iniciando con 124 y con un patrón de formación de – 12.

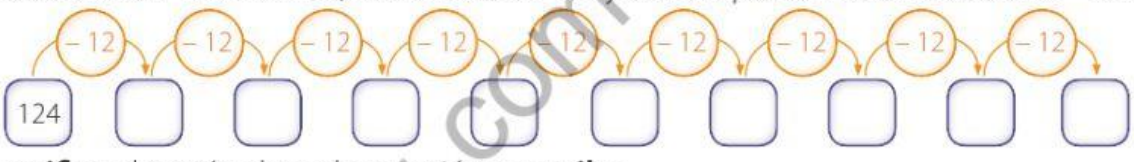

2. Identifica el patrón de cada sucesión y **escribe**.

a)	13	15	17	19	21	
b)	61	56	51	46	41	
c)	78	63	48	33	18	
d)	34	54	74	94	114	

3. Relaciona cada sucesión con su patrón.

a)	8	15	22	29	36		– 8
b)	43	35	27	19	11		– 6
c)	12	15	18	21	24		+ 9
d)	37	46	55	64	73	82	+ 7
e)	81	75	69	63	57		+ 3

Prohibida su comercialización

Texto página 8