السؤال الأول : اختر الإجابة الصحيحة مما بين القوسين :

١- الخريطة التي أمامك تمثل خريطة العالم التي رسمها :

أ- المسعودي **ب- الإدريسي**

ب- أحمد بن ماجد **ج- الاصطخري**

٢- الرقم الذي يشير إلى دائرة الاستواء في الخريطة الآتية:

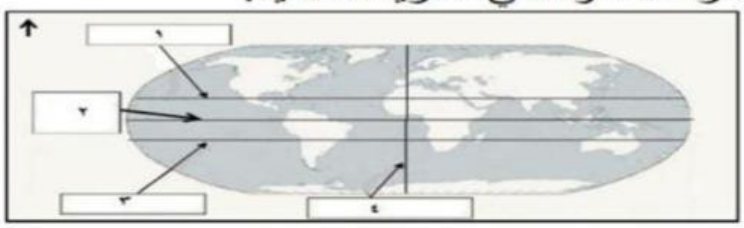

أ) ١
ب) ٢
ج) ٣
د) ٤

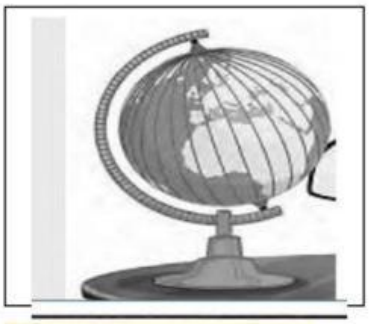

٣- جميع الخصائص التالية تنتمي الى الشكل الذي أمامك ماعدا :

ا- عددها ٣٦٠ خطا **ب- أنصاف دوائر**

ج- الخط الرئيسي جرينتش **د- عددها ١٨٠دائرة**

٤-الصورة التي أمامك للملاح العماني الشهير الذي قام بوضع كتاب:

أ- نزهة المشتاق في اختراق الأفاق **ب- معجم البلدان**

ج- الفوائد في أصول علم البحر والقواعد **د- لسان العرب**

٥- الحضارة التي رسمت خرائطها على أسس علمية دقيقة :

أ- الإغريق **ب- المسلمون** **ج- البابليون** **د- المصريون**

6- يبلغ عدد خطوط الطول :

أ- 250 خط ب- 260 خط ج- 280خط د- 360خط

7- دائرة العرض الرئيسية هي :

أ- مدار الجدي ب- دائرة الاستواء ج- مدار الجدي د- الدائرة القطبية الشمالية

8- يبلغ عدد دوائر العرض :

LIVEWORKSHEETS

أ- 160 ب- 190 ج- 280 د- 180

9- يقسم خط جرينتش سطح الكرة الأرضية إلى نصفين :

أ- شمالي وشرقي ب- شرقي وغربي ج- شمالي وجنوبي د- جنوبي وغربي

10- الفرق بين كل خط طول وخط طول :

أ- 6دقائق ب- 8 دقائق ج- 4 دقائق د- 5 دقائق

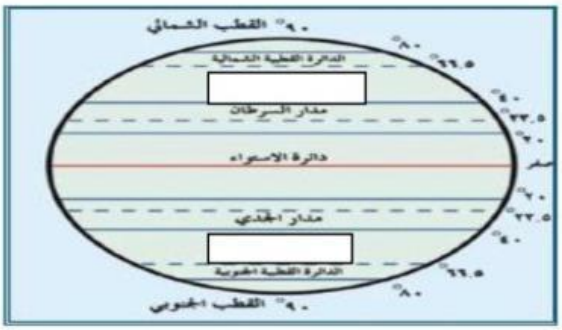

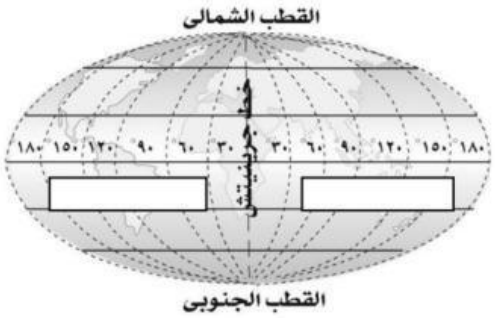

LIVEWORKSHEETS

LIVEWORKSHEETS