פתרו את התרגילים הבאים.

א) $\frac{4}{9}+\frac{2}{5}=$ ___ + ___ = ___

ב) $\frac{3}{10}+\frac{1}{3}=$ ___ + ___ = ___

ג) $\frac{4}{5}-\frac{3}{4}=$ ___ · ___ = ___

ד) $\frac{7}{10}-\frac{2}{3}=$ ___ · ___ = ___

ה) $\frac{7}{8}+\frac{3}{4}=$ ___ + ___ = ___

ו) $\frac{10}{11}+\frac{1}{2}=$ ___ + ___ = ___

ז) $\frac{5}{6}-\frac{5}{12}=$ ___ · ___ = ___

ח) $\frac{4}{7}-\frac{1}{4}=$ ___ · ___ = ___

ט) $1\frac{2}{3}+6\frac{1}{4}=$

___ + ___ = ___

י) $5\frac{2}{7}+2\frac{4}{7}=$ ___

יא) $9\frac{5}{6}-1\frac{1}{3}=$

___ · ___ = ___

יב) $3\frac{3}{4}-3\frac{3}{5}=$

___ · ___ = ___

2. יותם החליט לקרוא בשלושה ימים את הספר שלקח מהספריה.
ביום הראשון קרא $\frac{2}{5}$ מהספר. ביום השני קרא $\frac{1}{3}$ מהספר.
איזה חלק מהספר נשאר לו לקרוא ביום השלישי? ___

$\frac{2}{5}+\frac{1}{3}=$ ___ + ___ = ___

3. השלימו את פירמידות החיבור.

א)

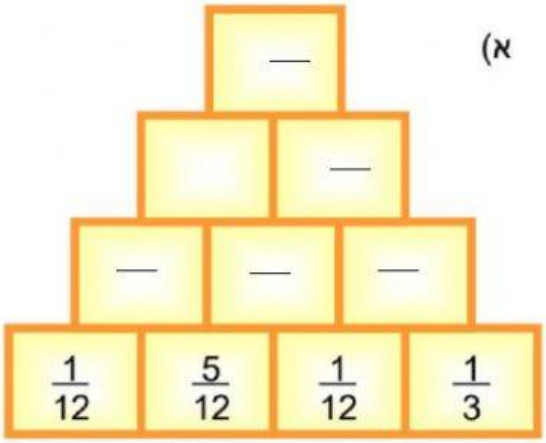

ב)

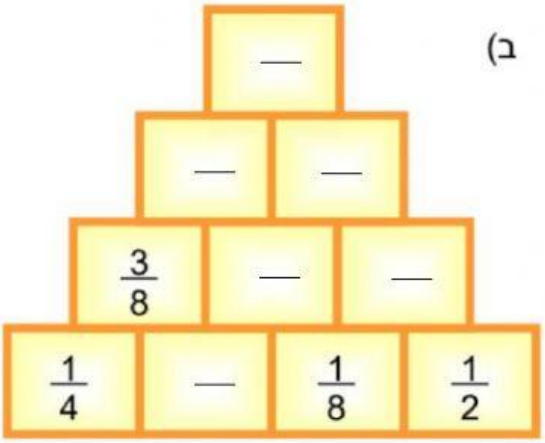

4. השלימו את המספרים החסרים על ישר המספרים.

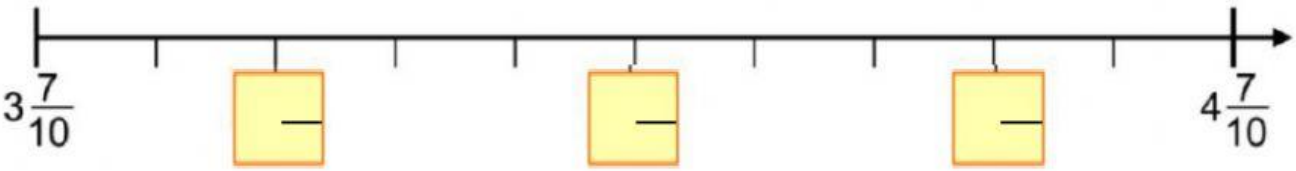

LIVEWORKSHEETS