1. Який відсоток квадрата зафарбовано, а який не зафарбовано:

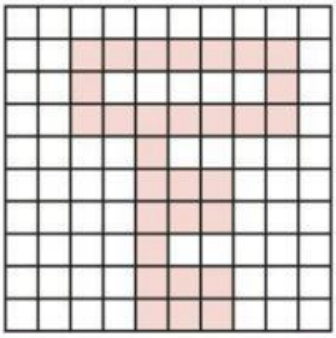

% квадрата зафарбовано.

% квадрата не зафарбовано.

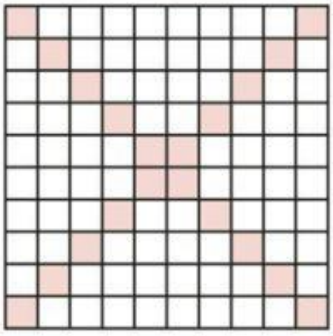

% квадрата зафарбовано.

% квадрата не зафарбовано.

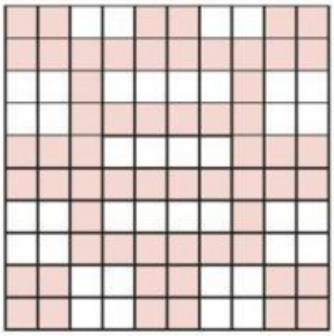

% квадрата зафарбовано.

% квадрата не зафарбовано.

2. Перетворіть у звичайний дріб:

а. 89% = ___

б. 11% = ___

в. 17% = ___

г. 28% = ___

д. 36% = ___

е. 45% = ___

є. 67% = ___

ж. 73% = ___

з. 85% = ___

3. Перетворіть звичайні дроби у відсотки:

$\frac{1}{2} =$ $\frac{1}{4} =$ $\frac{3}{5} =$

$\frac{3}{10} =$ $\frac{6}{20} =$ $\frac{11}{50} =$

4. Скільки відсотків фігури зафарбовано?

LIVEWORKSHEETS