6º	CIENCIAS SOCIALES	CRA "Río Pusa"	
	EVALUACIÓN INICIAL.		

1. ¿ A qué se refieren las siguientes definiciones ? Une su definición con el concepto

- Grupo de estrellas que se ven próximas en una región del cielo.
- Enormes esferas de gas en cuyo interior se produce gran cantidad de energía.
- Agrupaciones de miles o millones de estrellas
- Astros que giran alrededor de un planeta.

- Satélites o lunas
- Galaxias
- Estrellas
- Constelaciones.

2. Completa este mapa con el nombre de los ríos españoles. Arrastra el nombre



Segura | Duero | Tajo | Guadalquivir | Jucar | Guadiana | Ebro | Miño

LIVEWORKSHEETS

3. Señala los siguientes elementos en el mapa. Arrastra al lugar que corresponde

latitud norte | longitud este | latitud sur | longitud oeste

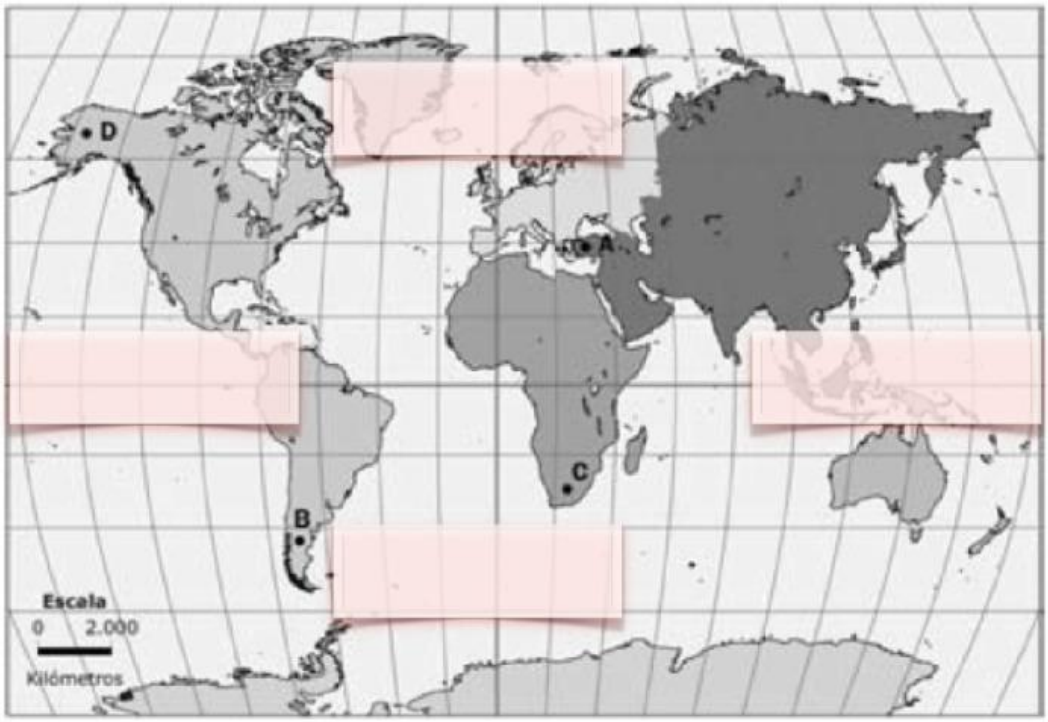

4. ¿A qué tipo de clima pertenece el siguiente climograma? Selecciona la respuesta correcta

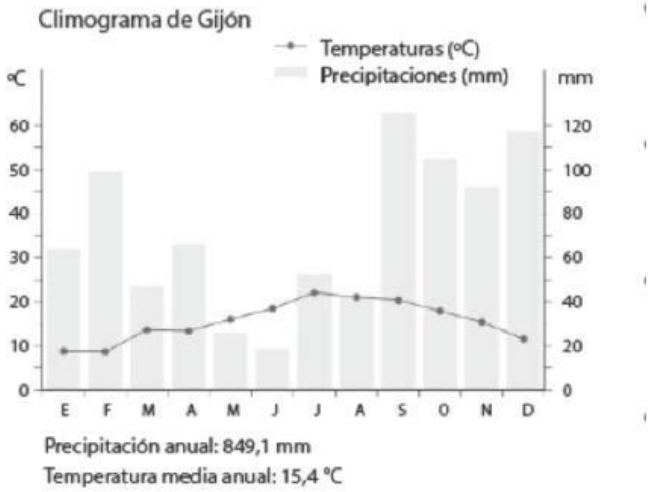

- ☐ Subtropical
- ☐ Atlántico
- ☐ Montaña
- ☐ Mediterráneo

LIVEWORKSHEETS

5. Une cada uno de los tres poderes con la institución que representan y su función

PODERES	INSTITUCIONES	FUNCIONES
Poder ejecutivo	Cortes Generales	Vela por el cumplimiento de las leyes
Poder legislativo	Consejo del Poder Judicial	Aprueba las leyes
Poder judicial	Gobierno	Hace que las leyes se cumplan

6. Analiza los datos y responde. Selecciona en el desplegadle



¿ Cuál fue el saldo natural de esta localidad en 2022 ? _____

¿ Y el saldo migratorio ? _____

¿ Creció o disminuyó su población en 2020 ? _____

LIVEWORKSHEETS

7. **Arrastra el nombre de cada etapa a su lugar correspondiente.**

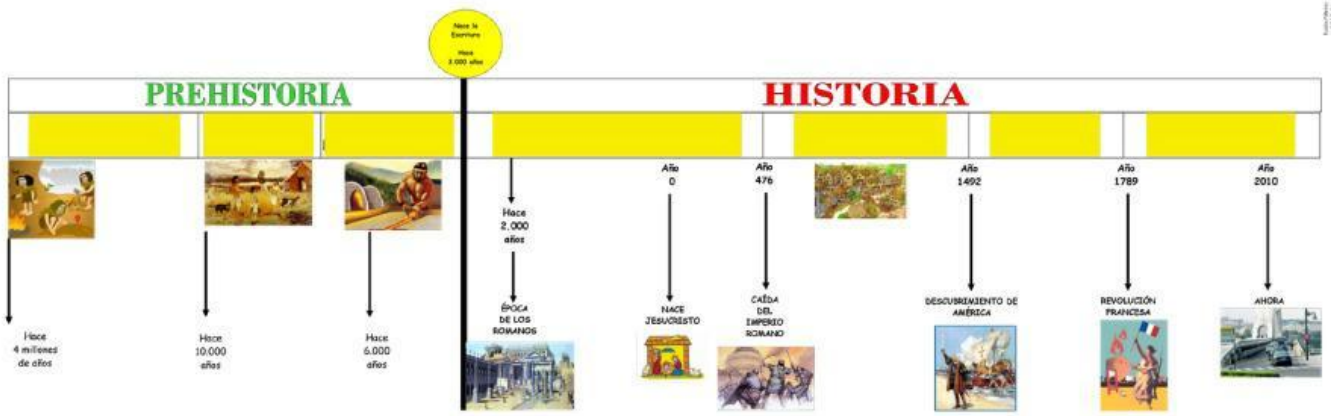

E. ANTIGUA	EDAD DE LOS METALES	E. CONTEMPORANEA	NEOLÍTICO	E. MODERNA	E. MEDIA	PALEOLÍTICO

8. **Pon el nombre de las diferentes comunidades. Selecciona en el desplegable**



LIVEWORKSHEETS