รูปเรขาคณิต 2และ3 มิติ

เลือกชื่อรูปร่างรูปทรงให้ถูกต้อง

สี่เหลี่ยมผืนผ้า

สี่เหลี่ยมจัตุรัส

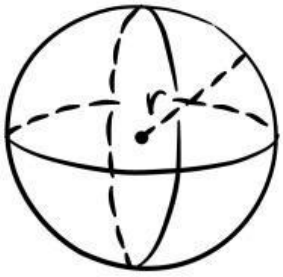

ทรงกลม

วงกลม



วงกลม

ทรงกลม

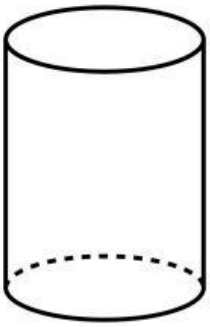

ทรงกระบอก

ทรงกรวย



สามเหลี่ยม

หกเหลี่ยม

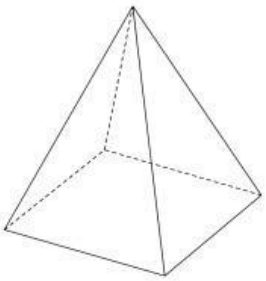

พีระมิด

ลูกบาศก์

ชื่อ-นามสกุล _____

ชั้น _____

LIVEWORKSHEETS