SDN Kramat 03, Jakarta Pusat

Lembar Kerja Peserta Didik

CENDERA MATA : REPLIKA MONAS

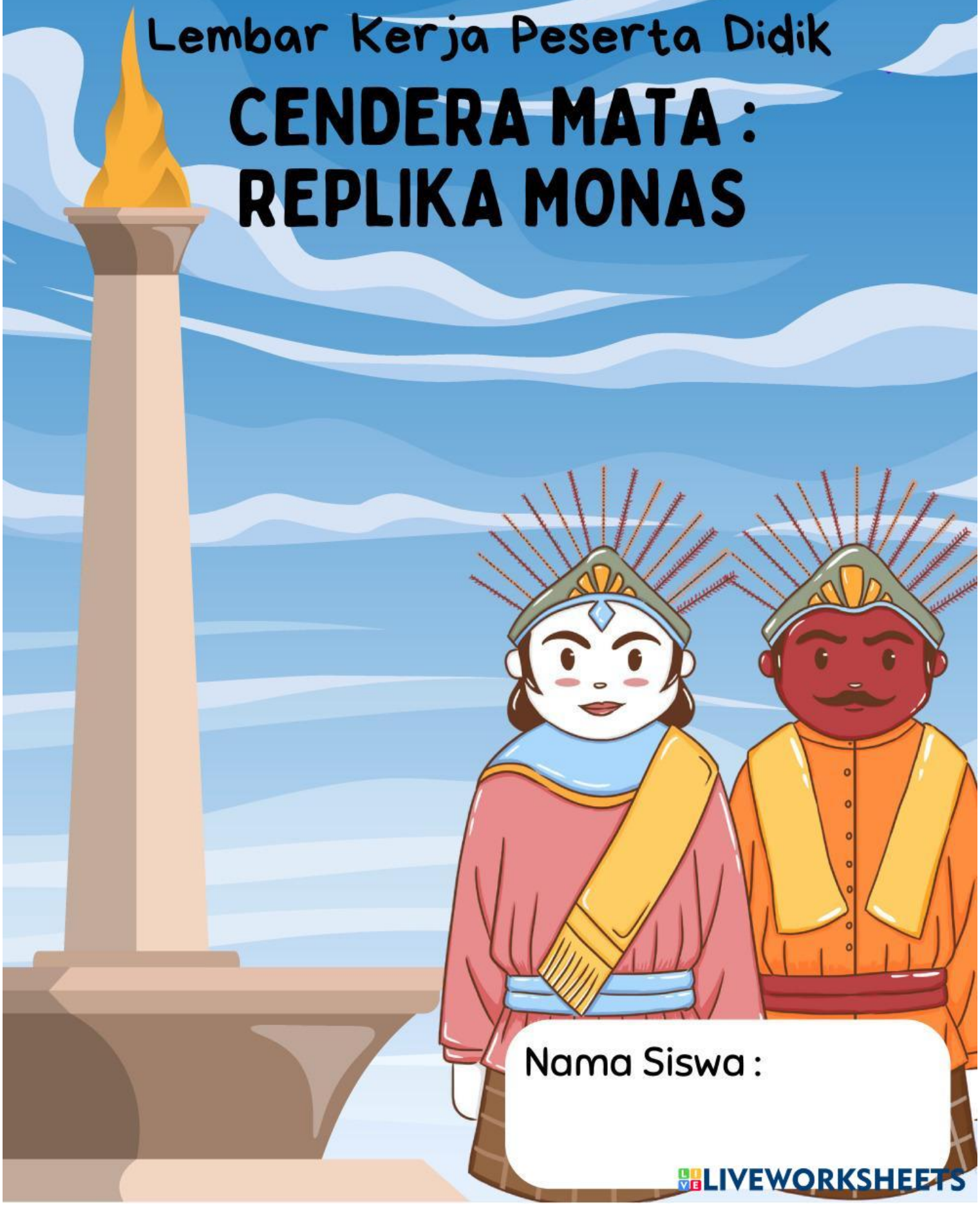

Nama Siswa :

LIVEWORKSHEETS

Yuk kita saksikan terlebih dahulu video "Mengenal Cenderamata Replika Monas" di bawah ini. Kalian catat hal-hal penting yang terdapat pada video tersebut ya



Kalian jangan lanjut ke halaman berikutnya sampai kalian benar-benar paham dan sudah mencatat hal-hal pentinmg yang terdapat pada video tersebut.

LIVEWORKSHEETS

Yuk kita saksikan terlebih dahulu video "Makna Ukuran Replika Monas" di bawah ini. Kalian catat hal-hal penting yang terdapat pada video tersebut ya



Kalian jangan lanjut ke halaman berikutnya sampai kalian benar-benar paham dan sudah mencatat hal-hal pentinmg yang terdapat pada video tersebut.

LIVEWORKSHEETS

Pilihlah jawaban yang paling tepat dengan menuliskan Abjad jawaban menggunakan huruf Kapital pada totak yang disediakan pada masing-Omasing soal.

1. Tugu Monas dibangun oleh seorang arsitek bernama
2. Lidah api pada bagian atas monas terbuat dari
3. Lidah api pada bagian atas monas menggambarkan
4. Tokoh yang mengusulkan pembangunan Monas adalah
5. Lidah api pada bagian atas monas dilapisi emas seberat
6. Tinggi Tugu Monas dari bawah hingga atas adalah
7. Sejarah perjuangan bangsa Indonesia ditampilkan di Monas pada bagian
8. Monas diresmikan pada tanggal
9. Monas terdapat di Provinsi
10. Monas dalam ukurang yang kecil dan biasanya dijadikan cendera mata disebut

Jawaban

A. 17 Agustus 1961
B. Replika Monas
C. Semangat juang Rakyat Indonesia
D. Frederich Silaban & R. M. Soedarsono
E. Emas
F. Soekarno
G. 45 Kg
H. 132 m
I. DKI Jakarta
J. Museum

LIVEWORKSHEETS

Bagian Tubuh Monas



LIVEWORKSHEETS