Lembar Kerja Peserta Didik

Materi : Bilangan Pecahan
Sub Materi : Mengenal dan Membandingkan Pecahan
Kelas/Semester : VII/Ganjil
Alokasi waktu : 2 x 40 menit

Setelah melakukan kegiatan ini kamu diharapkan dapat:

- **Menyajikan pecahan dengan berbagai bentuk**
- **Menyelesaikanper masalahan yang berkaitan dengan membandingkan pecahan**

Nama Kelompok :
Anggota Kelompok :

1.
2.
3.
4.

LIVEWORKSHEETS

AKTIVITAS 1 (Mengenal Pecahan)

Manakah daerah yang diarsir yang merupakan pecahan $\frac{1}{2}$

Petunjuk Pilihlah gambar-gambar di bawah ini yang menurutmu adalah jawabannya

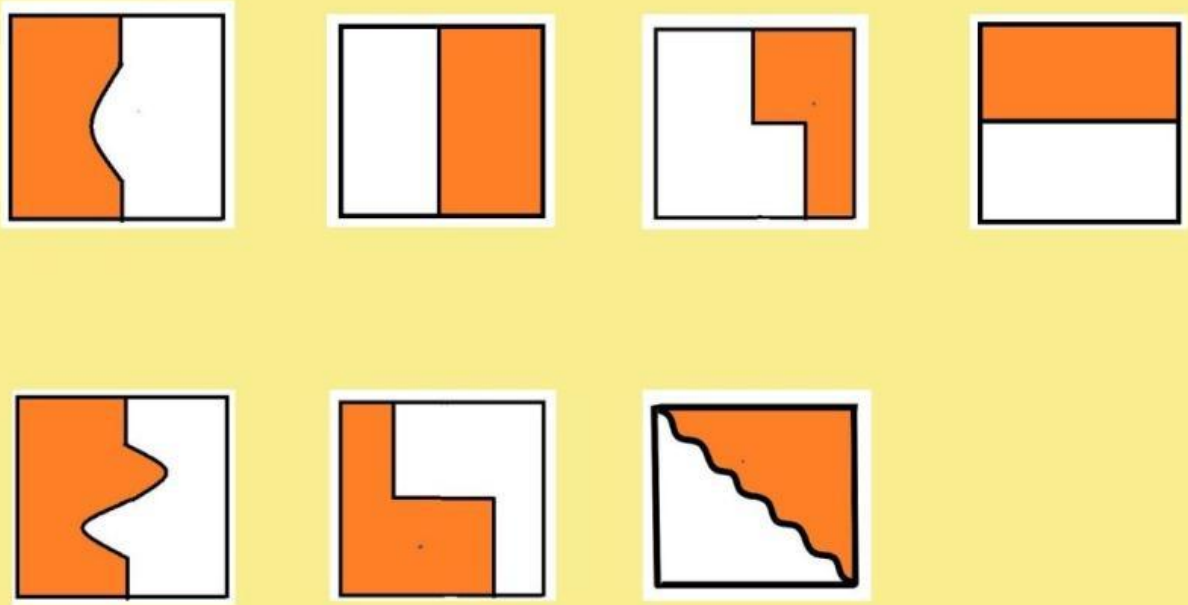

LIVEWORKSHEETS

AKTIVITAS 2

Tuliskanlah jika benar (B) dan jika salah (S) pada kotak berdasarkan gambar arsiran

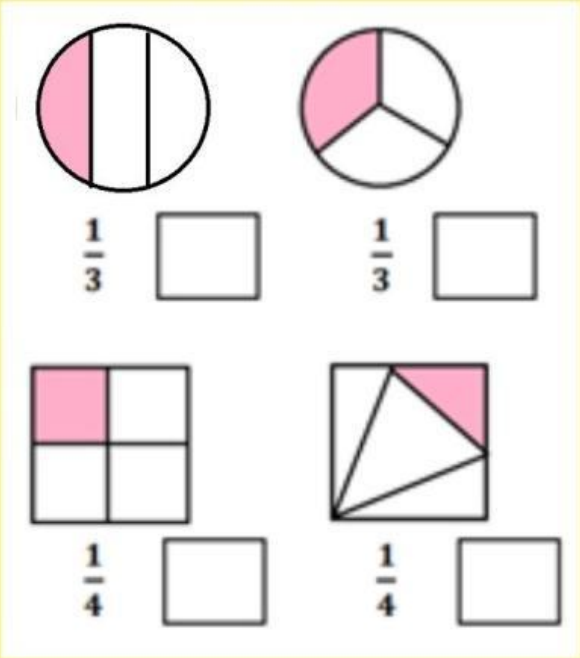

AKTIVITAS 3

Tentukan nilai pecahan berdasarkan gambar yang diarsir :



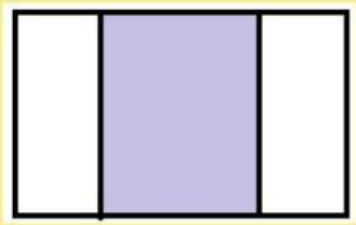



LIVEWORKSHEETS

AKTIVITAS 4

Gambar segi enam di bawah ini menyatakan pecahan $\frac{1}{2}$

Pasangkan bilangan berikut dengan gambar yang sesuai dengan pecahannya :

a. 1

b. 2

c. $\frac{3}{2}$

LIVEWORKSHEETS

AKTIVITAS 5

Tuliskan berbagai gambar yang merupakan pecahan $\frac{1}{2}$ (sebanyak mungkin) dan gambar satuan nya selain gambar yang ada pada aktivitas 1-4

Tulis jawaban di kertas yang telah disediakan

LIVEWORKSHEETS