نشاط ختامي في المتتاليات ٢

أكملي المتتاليه من خلال وضع السياره فى المكان المناسب :-

ضعي كل صف في مكانه المناسب





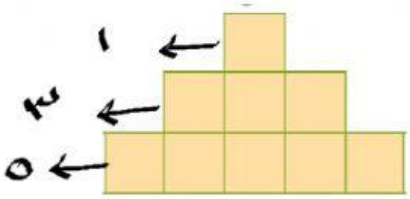

عدد الصفوف	١	٢	٣	٤	٥	٦
عدد المربعات في الصف الاسفل	١	٣	٥			

LIVEWORKSHEETS

٣- ساعد الضفدع للوصول للهدية من خلال إكمال الأعداد الناقصة للمتتالية التي يقفز بها.

)انظر الى الاشكال التالية حوط عددا لمربعات التي يتكون منها الشكل السادس.

الأول	الثاني	الثالث	الرابع	الخامس	السادس
		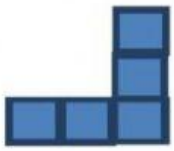			

٦ ٧ ٩ ١١ ١٣

(تجريبي خامس ٢٠١٩م)

أ.أمل الروشدية

LIVEWORKSHEETS