PROBLEMAS CON DINERO

1. Escribe cuántos céntimos son.

7,35 € = ☐ céntimos

2,50€ = ☐ céntimos

5,64 € = ☐ céntimos

3,40 € = ☐ céntimos

4,60 € = ☐ céntimos

2. Resuelve.

Jaime quiere comprar una caja de colores y un bolígrafo. ¿Cuánto dinero tiene que pagar?



Datos ▶

☐ € = ☐ céntimos

☐ € = ☐ céntimos

Operación

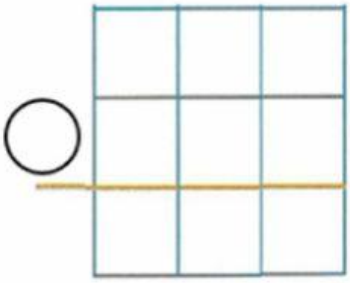

Solución ▶Tiene que pagar _____ euros y _____céntimos.

LIVEWORKSHEETS

Ana se quiere comprar un cuento de Caperucita Roja.

Tiene 6,83 € . ¿Cuánto dinero le falta?

Operación

Datos ▶ ____ € = ____ céntimos

____ € = ____ céntimos

Solución ▶ Le faltan ____ euros y ____céntimos.

.....

Tengo estas monedas

Me dan

¿Cuánto dinero tengo?

Operación

Datos ▶ ____ € = ____ céntimos

____ € = ____ céntimos

Solución ▶ Tengo ____ euros y ____céntimos.

LIVEWORKSHEETS

Martín tiene este dinero en su hucha y compra la camiseta más barata. ¿Cuánto dinero le sobra?

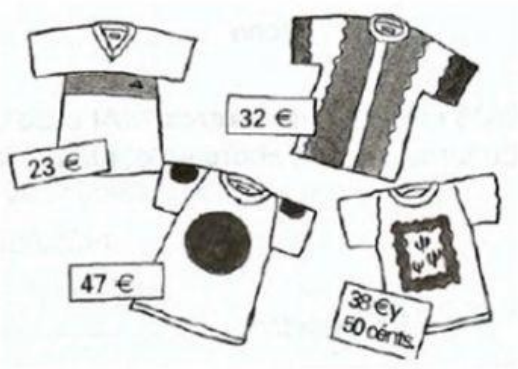

Datos ▶ ☐ € = ☐ céntimos

☐ € = ☐ céntimos

Operación

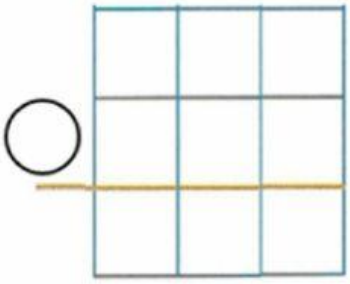

Solución ▶ Le sobran ____ euros y ____céntimos.

LIVEWORKSHEETS