ชื่อ.....นามสกุล.....ชั้น.....เลขที่.....

ใบงานเรื่องรูปเรขาคณิตสามมิติ

คำชี้แจง : ให้นักเรียนดูภาพและเขียนชื่อรูปให้ถูกต้อง

ทรงกลม	ทรงกระบอก	ปริซึมสามเหลี่ยม
พีระมิดฐานสามเหลี่ยม	ทรงสี่เหลี่ยมมุมฉาก	พีระมิดฐานสี่เหลี่ยม
กรวย	ลูกบาศก์	ปริซึมหกเหลี่ยม

		
	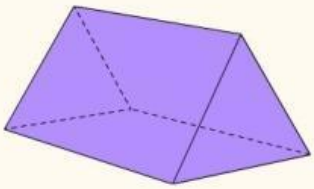	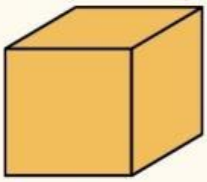
	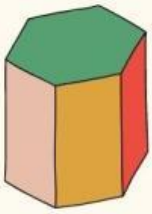	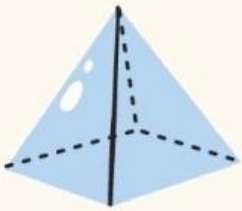

LIVEWORKSHEETS