MISIONEROS CLARETIANOS
Escuela Básica La Presentación
Leonidas Plaza 2700 y Bolivia
Guayaquil – Ecuador

Escuela Claretiana
La Presentación

Una Institución al Servicio de la Vida
y la Dignidad del Ser Humano

EVALUACIÓN DEL SEGUNDO PARCIAL SEGUNDO QUIMESTRE

Datos informativos

Nombre:

Fecha:

Curso: 3°

Paralelo: "A" / "B"

Asignatura: MATEMÁTICA

Docentes: Patricia Alvarado / Genoveva Chica

1.- ORDENA LOS MESES DEL AÑO, ARRASTRANDO CADA UNO A SU POSICION CORRECTA.

MARZO	DICIEMBRE	ENERO	SEPTIEMBRE	ABRIL	NOVIEMBRE
JUNIO	OCTUBRE	JULIO	FEBRERO	AGOSTO	MAYO

1°		5°		9°	
2°		6°		10°	
3°		7°		11°	
4°		8°		12°	

2.- .SELLECCIONA LA HORA CORRECTA QUE SE PRESENTA EN CADA RELOJ ANALOGICO Y DIGITAL.



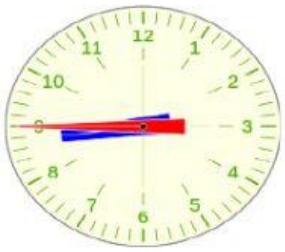

LA UNA Y VEINTE	LAS VEINTIUNO Y TREINTA	LAS OCHO Y CUARENTA Y CINCO	LAS QUINCE Y DIECINUEVE
LAS 12 Y VEINTE	LAS VEINTIDOS Y CINCUENTA	LAS OCHO Y CINCUENTA Y CINCO	LAS QUINCE Y VEINTINUEVE
LAS 12 Y QUINCE	LAS VEINTIDOS Y CUARENTA	LAS NUEVE Y CUARENTA Y CINCO	LAS CATORCE Y VEINTINUEVE

LIVEWORKSHEETS

3.- RESUELVE Y ENLAZA CADA SUMA CON SU RESULTADO CORRESPONDIENTE.

SUMA				
		C	D	U
		◯	◯	
		5	8	7
+				
		6	3	4

SUMA				
		C	D	U
		6	7	O
+				
		2	1	9

a) 1.212

b) 1.221

c) 889

d) 898

4.- ARRASTRE LAS IMÁGENES Y REALICE LAS POSIBLES COMBINACIONES PARA DESAYUNAR.



BEBIDAS / PANES		

LIVEWORKSHEETS

5.- A CADA LITERAL SELECCIONE LA ALTERNATIVA CORRECTA.

a- UNA HORA TIENE

60 MINUTOS	**90 MINUTOS**	**30 MINUTOS**

b- UN DIA TIENE

42 HORAS	**24 HORAS**	**12 HORAS**

c- UNA SEMANA TIENE

10 DIAS	**8 DIAS**	**7 DIAS**

d- UN MES TIENE

4 SEMANAS	**9 SEMANAS**	**5 SEMANAS**

e- EL AÑO BISIESTO ES CADA

2 AÑOS	**4 AÑOS**	**6 AÑOS**

f- MEDIA HORA ES

15 MINUTOS	**45 MINUTOS**	**30 MINUTOS**

6.- CUENTA Y ESCRIBE EL VALOR DE CADA GRUPO DE DINERO.



LIVEWORKSHEETS

7.- RESUELVE Y ENLAZA CADA RESTA CON SU RESULTADO CORRESPONDIENTE.

RESTA				
		C	D	U
		○	○	
		6	1	3
-				
		2	7	9

RESTA				
		C	D	U
		7	5	8
-				
		2	1	4

a) 334

b) 454

c) 343

d) 544

LIVEWORKSHEETS

8.- REALICE LAS SIGUIENTES MULTIPLICACIONES Y ESCRIBA SUS TERMINOS.

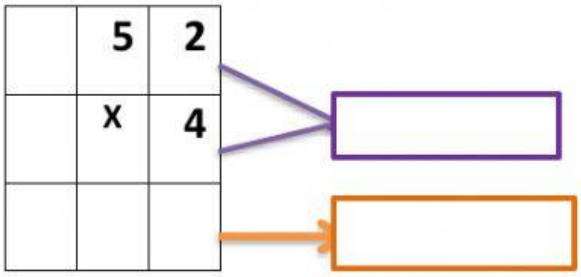

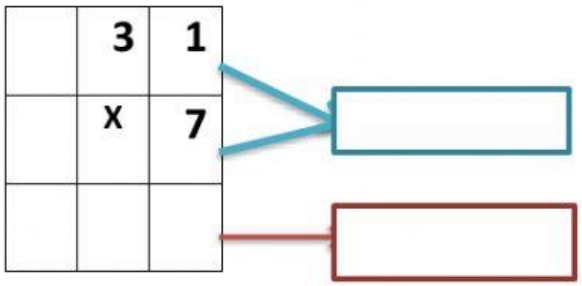

9.- RELACIONE EL DOBLE Y TRIPLE DE CADA NUMERO SEGÚN CORRESPONDA.

EL DOBLE DE 16	**21**
EL TRIPLE DE 7	**28**
EL DOBLE DE 14	**32**
EL TRIPLE DE 8	**24**

LIVEWORKSHEETS