ESCUELA DE EDUCACIÓN GENERAL BÁSICA.

ISAAC ANTONIO CHICO

Seleccione todas las respuestas correctas que identifiquen a un triángulo rectángulo:

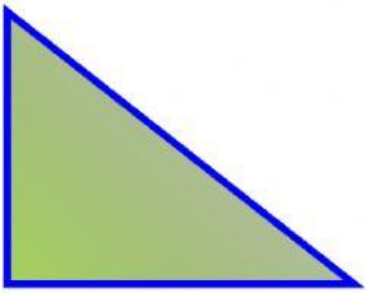

- Tiene un angulo recto o de 90°
- Todos sus lados son iguales.
- Sus ángulos internos suman 90°
- Tiene 3 lados y 5 ángulos
- La hipotenusa es el lado más grande

Seleccione las imágenes cuyas medidas representen a un triángulo rectángulo:

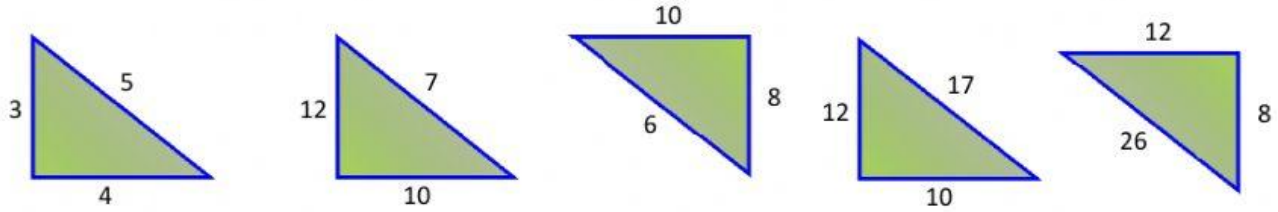

Seleccione los triángulos rectángulos

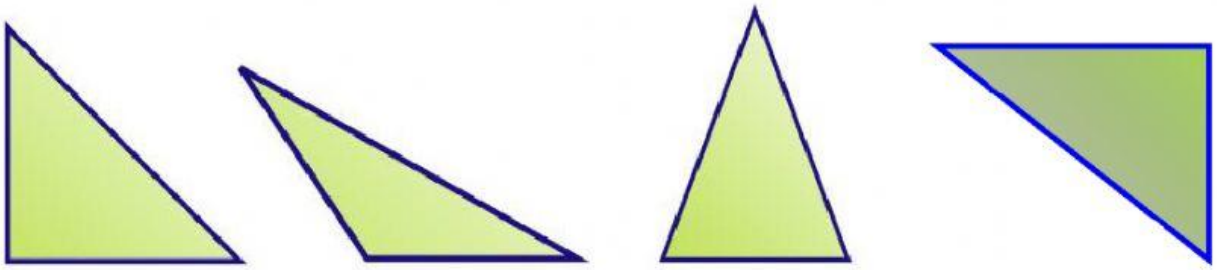

LIVEWORKSHEETS