Họ và tên: .....

ÔN TẬP VỀ GIẢI TOÁN

Bài 1: Tính nhẩm

Điền số thích hợp vào chỗ trống:

21 x 24 = ...+ ..... = ...

31 x 44 = ...+ ..... = ...

61 x 52 = ...+ ..... = ...

31 x 34 = ...+ ..... = ...

41 x 77 = ...+ ..... = ...

61 x 66 = ...+ ..... = ...

31 x 62 = ...+ ..... = ...

71 x 88 = ...+ ..... = ...

81 x 22 = ...+ ..... = ...

NGUYỄN ĐÀO

Bài 2: Tuổi cha bằng 9/2 tuổi con. Biết rằng cha 45 tuổi. Hãy tính tuổi của con

A. 10 tuổi

C. 8 tuổi

B. 5 tuổi

D. 9 tuổi

Bài 3: Trong hình dưới đây có mấy hình bình hành?

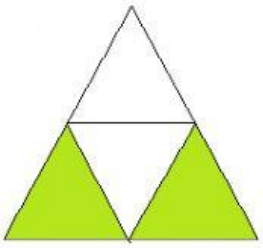

A. 1 hình bình hành

C. 3 hình bình hành

B. 2 hình bình hành

D. 4 hình bình hành

LIVEWORKSHEETS

Bài 4: 2/7 số học sinh lớp em là học sinh giỏi Toán. Biết rằng lớp em có 14 học sinh giỏi Toán. Hỏi số học sinh lớp em?

Số học sinh của lớp là: ……..

Bài 5: Một đàn vừa trâu, vừa bò, vừa ngựa đang ăn cỏ. Số trâu chiếm 1/3 cả đàn, số ngựa chiếm 1/2 cả đàn. Hỏi số bò bằng mấy phần của cả đàn?

Số bò bằng — cả đàn.

Bài 6: Tìm số ghi ở mỗi nhụy hoa, biết Số ghi ở nhụy hoa bằng trung bình cộng của các số ghi ở cánh hoa,

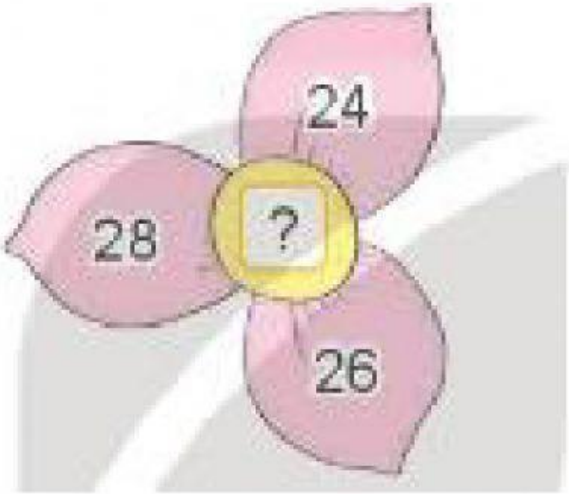



LIVEWORKSHEETS