La tiendita de la esquina

Instrucciones: observa los precios y responde

$25

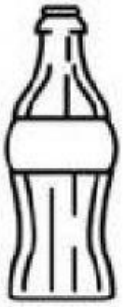

$15



$18

$10

1.- ¿Qué producto es el más caro?

_____

2.- ¿Qué producto es el más económico?

_____

3.- ¿Qué productos suman en su total 40 pesos?

_____

4.- ¿Qué producto cuesta mas que las papitas pero menos que la leche?

_____

5.- ¿Si compro todos los productos, cuanto sería en total?

_____

©Mundo Didáctico
LIVEWORKSHEETS

MATEMÁTICAS

Viernes 22 de enero de 2021

comparación de precios.



$ 15	$ 25	$ 5	$ 8

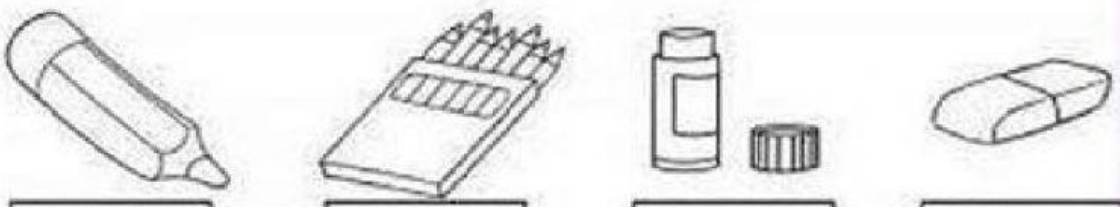

$ 5	$ 10	$ 9	$ 3

1.-¿Cuál es al articulo que vale más?

_____

2.-¿Cuál es el de menor costo?

_____

3.-¿Qué artículos tienen el mismo costo?

_____

4.-¿Qué articulo tiene un costo mayor que los colores pero menor que el cuento?

_____

LIVEWORKSHEETS