TOÁN HK II (7)

ĐỘ DÀI – HÌNH HỌC

1. Quan sát tranh, điền số phù hợp vào chỗ chấm:

a)

	cao……. viên gạch
	cao……. viên gạch
	cao……. viên gạch
	cao……. viên gạch

LIVEWORKSHEETS

b)

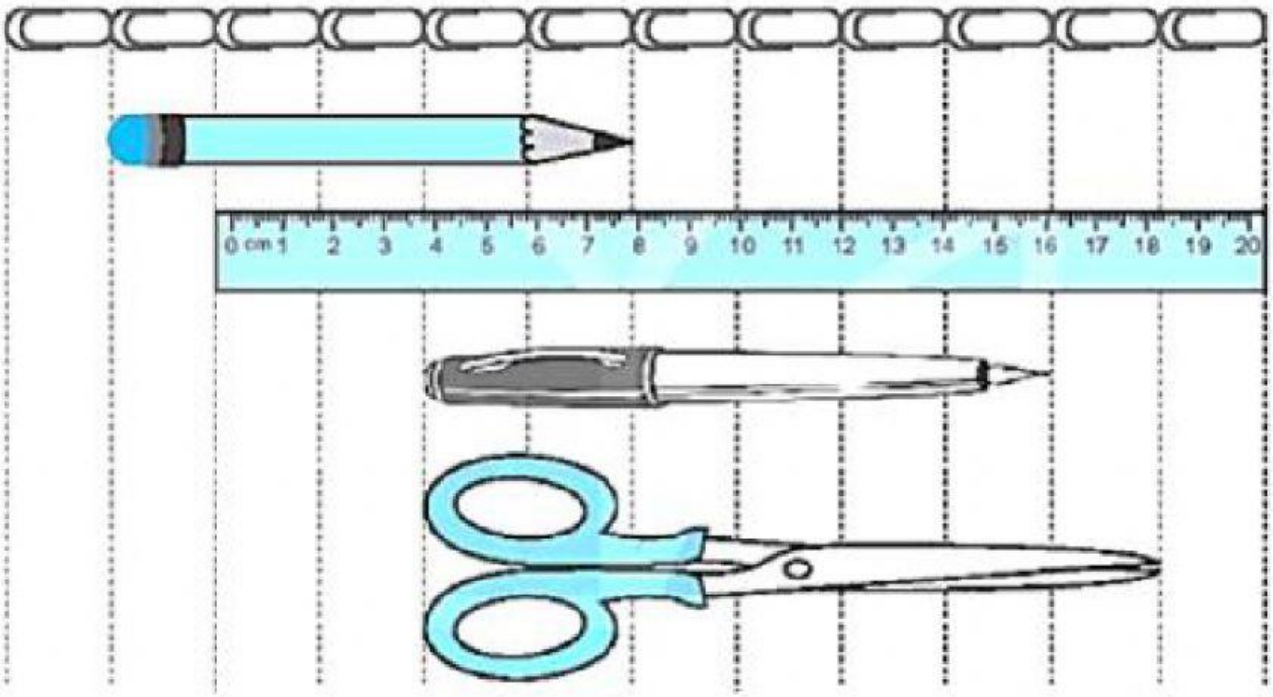

	dài…….
	dài …….
	dài …….
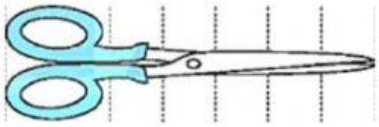	dài …….

LIVEWORKSHEETS

3. Điền vào chỗ chấm:

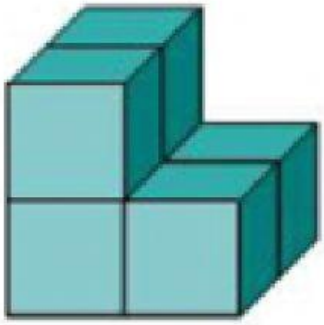

Có ….. khối lập phương



Có ….. khối lập phương

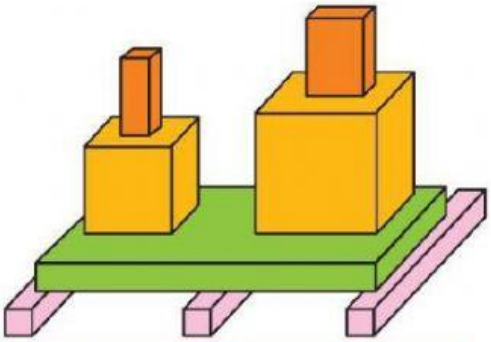

Có ….. khối lập phương

Có ….. khối hộp chữ nhật

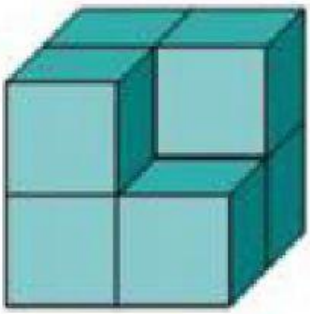

Có ….. khối lập phương

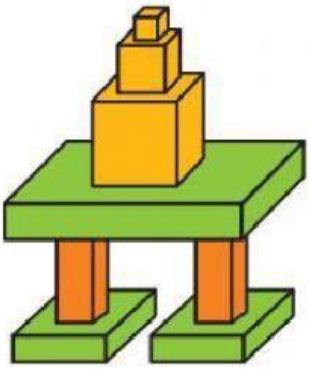

Có ….. khối lập phương

Có ….. khối hộp chữ nhật

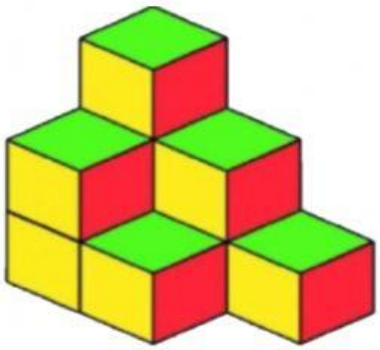

Có ….. khối lập phương

Thank you!

Ms. Huyen Trang

LIVEWORKSHEETS