Toán Kangaroo Lớp 4 – Số 08

1. **Phần A. Mỗi câu đúng 3 điểm**
Một khu vườn được thiết kế với các ô vuông có cạnh dài 1 mét. Một con thỏ đi theo con đường như hình vẽ. Hỏi con thỏ đã đi bao nhiêu mét?

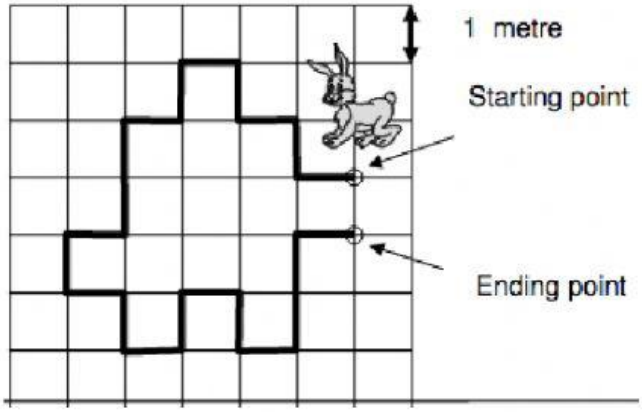

- 18 mét
- 19 mét
- 20 mét
- 21 mét
- 22 mét

2. Con chuột túi đang ở đâu?

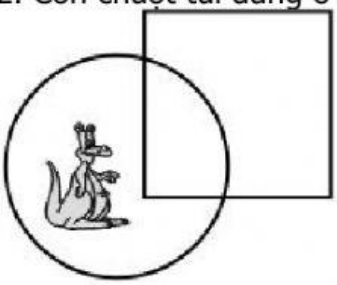

LIVEWORKSHEETS

- Trong hình tròn, nhưng ngoài hình vuông
- Trong hình tròn và trong hình vuông
- Tron hình vuông nhưng ngoài hình tròn
- Ngoài hình vuông và ngoài hình tròn
- Chẳng ở trong hình vuông lẫn hình tròn

3. Christina tạo ra một hình lập phương mới từ 9 hình lập phương nhỏ như hình dưới đây:



Sau đó bạn ấy bỏ đi một vài khối lập phương nhỏ, để tạo thành hình như dưới đây:

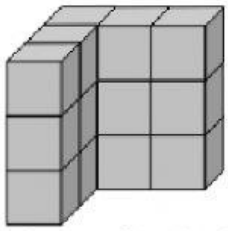

Hỏi bạn ấy đã bỏ đi bao nhiêu hình lập phương nhỏ?

- 6
- 8
- 10
- 12
- 14

4. John thiết kế số 930 như hình dưới đây. Sau đó bạn ấy thay đổi màu một vài hình vuông trong số 930 để tạo ra số 806. Hỏi bạn ấy đã đổi màu bao nhiêu hình

LIVEWORKSHEETS

vuông?



- 5
- 6
- 7
- 8
- 9

5. Trên bàn có 16 quả anh đào Anna ăn một nửa số chúng, baso ăn 2 và Yiota ăn phần còn lại. hỏi Yiota đã ăn boa nhiêu quả anh đào?

- 4
- 6
- 8
- 10
- 12

6. Khu vườn dưới đây được tạo từ 10 hình chữ nhật có kích thước 10cm x 20 cm. Nicos vẽ một đường thẳng nối qua tâm của mỗi hình chữ nhật như ở dưới. Hỏi chiều dài của đường thẳng này là bao nhiêu?

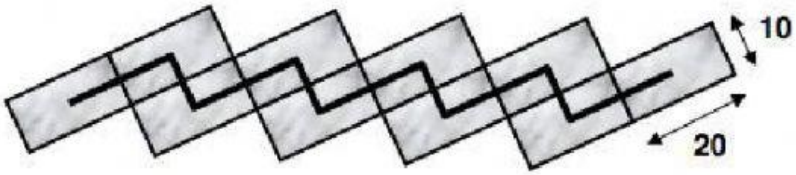

- 70 cm
- 90 cm
- 140 cm
- 150 cm
- 180 cm

LIVEWORKSHEETS